Problems on Trains - 02 : May 17

Special class

Ishwargiri Swamy • May 17, 2024

* ದೂರ = ವೇಗ × ಸಮಯ

* ಸಮಯ = $\frac{\text{ದೂರ}}{\text{ವೇಗ}}$

* ವೇಗ = $\frac{\text{ದೂರ}}{\text{ಸಮಯ}}$

1) <u>ಕಂಪ ಭಾರವಾಗಿ</u>



ಮೇಗ = ಕೆಲಸ ಮೇಗ

ಕಂಗ = ಕೆಲಸ ಬಲ

2) ಮೃಭಾರವ ಭಾರವಾಗಿ

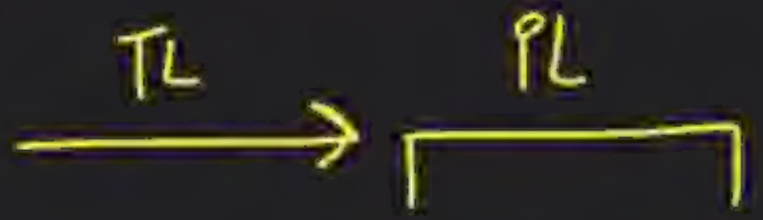

ಮೇಗ = ಕೆಲಸ ಮೇಗ

ಕಂಗ = TL + PL

3) ఎక్కువ తిరుగుడు

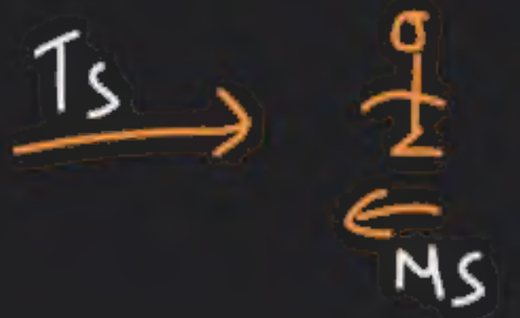

మార్గ = శ్రీలక్ష్మ

ఎక్కడ = $T_s + M_s$

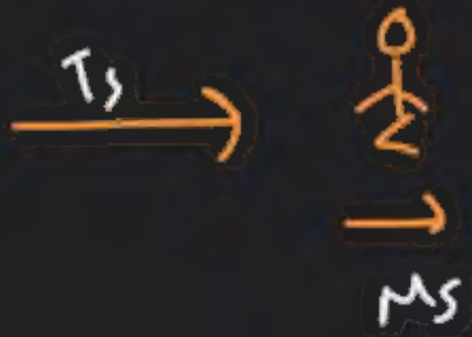

మార్గ = శ్రీలక్ష్మ

ఎక్కడ = $T_s - M_s$

4) ఉపక్రమణ శీలము నిరూపణ



$$\text{మొత్తం} = TL_1 + TL_2$$

$$\text{తేడా} = S_1 + S_2$$



$$\text{మొత్తం} = TL_1 + TL_2$$

$$\text{తేడా} = S_1 - S_2$$

$$\text{ವೇಗ} = \frac{\text{ದೂರ}}{\text{ಕಾಲ}} = \frac{D}{S}$$

S = kmph D = Mtrs

$$\text{ವೇಗ} = \frac{D}{S \times \frac{5}{18}} = \frac{D \times 18}{S \times 5}$$

$T_L = 300m \quad P_L = 200m \quad Speed = 72 km/h \quad T = ?$

$$T = \frac{D}{S} = \frac{500}{72 \times \frac{5}{18}} = \frac{500}{20} = 25$$

Problems on Trains



Welcome

ರೈಲು ವ್ಯಕ್ತಿ, ಕಂಬ ಅಥವಾ ಮರವನ್ನು ದಾಟುವುದು



ರೈಲು ಕ್ರಮಿಸುವ ದೂರ

= ರೈಲಿನ ಉದ್ದ + 0

ವೇಗ = ಕೇವಲ ರೈಲಿನ

ವೇಗ

IGacademy Download App in PlayStore | SUBSCRIBE IshwarGiri ಪಾಠಶಾಲೆ | 8660070677

Q. Find the time taken by a 240 m long train, moving at a speed of 15 mps, to cross the light pole on the platform.

ಪ್ಲಾಟ್‌ಫಾರ್ಮ್‌ನಲ್ಲಿದ್ದ ಲೈಟಿನ ಕಂಬ ದಾಟಲು 15 mps ವೇಗದಲ್ಲಿ ಚಲಿಸುವ, 240 ಮೀಟರ್ ಉದ್ದದ ರೈಲು ತೆಗೆದುಕೊಂಡ ಸಮಯವನ್ನು ಕಂಡುಹಿಡಿಯಿರಿ.

a)16 s b)12 s c)18 s d)15 s

IGacademy Download App in PlayStore | SUBSCRIBE IshwarGiri ಪಾಠಶಾಲೆ | 8660070677

Q. ಪ್ಲಾಟ್‌ಫಾರ್ಮ್‌ನಲ್ಲಿದ್ದ ಲೈಟಿನ ಕಂಬ ದಾಟಲು **15 mps** ವೇಗದಲ್ಲಿ ಚಲಿಸುವ, **240** ಮೀಟರ್ ಉದ್ದದ ರೈಲು ತೆಗೆದುಕೊಂಡ ಸಮಯವನ್ನು ಕಂಡುಹಿಡಿಯಿರಿ.

a)16 s b)12 s c)18 s d)15 s

ಸಮಯ = $\frac{240}{15}$ = 16

Q. Find the time taken by a 500 meters long train, moving at a speed of 72 kmph, to cross the flagpole on the platform.

ಪ್ಲಾಟ್‌ಫಾರ್ಮ್‌ನಲ್ಲಿದ್ದ ಧ್ವಜಸ್ತಂಭ ದಾಟಲು 72 kmph ವೇಗದಲ್ಲಿ ಚಲಿಸುವ, 500 ಮೀಟರ್ ಉದ್ದದ ರೈಲು ತೆಗೆದುಕೊಂಡ ಸಮಯವನ್ನು ಕಂಡುಹಿಡಿಯಿರಿ.

a)20 s b)30 s c)25 s d)27 s

IGacademy Download App in PlayStore | SUBSCRIBE IshwarGiri ಪಾಠಶಾಲೆ | 8660070677

Q. ಪ್ಲಾಟ್‌ಫಾರ್ಮ್‌ನಲ್ಲಿದ್ದ ಧ್ವಜಸ್ತಂಭ ದಾಟಲು 72 kmph ವೇಗದಲ್ಲಿ ಚಲಿಸುವ, 500 ಮೀಟರ್ ಉದ್ದದ ರೈಲು ತೆಗೆದುಕೊಂಡ ಸಮಯವನ್ನು ಕಂಡುಹಿಡಿಯಿರಿ.

a)20 s **b)30 s** **c)25 s** **d)27 s**

ಸಮಯ = $\frac{500}{72 \times \frac{5}{18}} = \frac{500}{20} = 25$

ರೈಲು ಸೇತುವೆ, ಪ್ಲಾಟ್ ಫಾರಂ ಅಥವಾ ಸುರಂಗವನ್ನು ದಾಟುವುದು

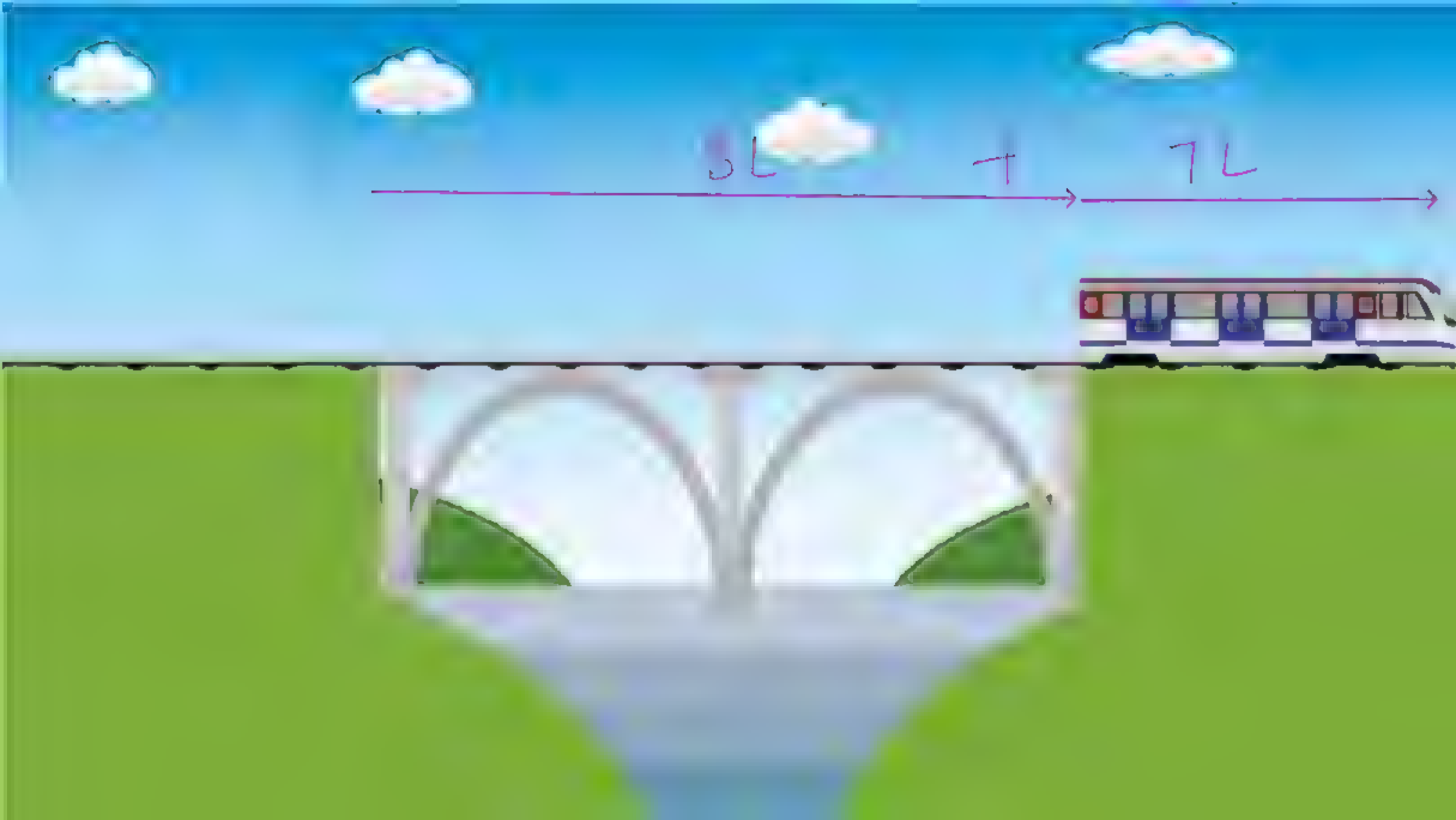
3L
+
7L

ರೈಲು ಸೇತುವೆ, ಪ್ಲಾಟ್ ಫಾರಂ ಅಥವಾ ಸುರಂಗವನ್ನು ದಾಟುವುದು



ರೈಲು ಕ್ರಮಿಸುವ ದೂರ = ಸೇತುವೆಯ ಉದ್ದ+ ರೈಲಿನ ಉದ್ದ

ವೇಗ = ಕೇವಲ ರೈಲಿನ ವೇಗ

Q. A train moving at a speed of 54kmph crosses a river bank of 200m wide. This train is 400m long and how long will it take for the train to cross completely?

54kmph ವೇಗದಲ್ಲಿ ಹೋಗುತ್ತಿರುವ ರೈಲೊಂದು 200m ಅಗಲದ ನದಿ ದಂಡೆಯನ್ನು ದಾಟುತ್ತಿದೆ. ಈ ರೈಲು 400 ಮೀ ಉದ್ದವಿದ್ದು ರೈಲು ಸಂಪೂರ್ಣವಾಗಿ ಹೊರಬರಲು ಎಷ್ಟು ಸಮಯ ತಗಲುತ್ತದೆ?

(In seconds)

a)40 b)30 c)50 d)25

IGacademy Download App in PlayStore | SUBSCRIBE IshwarGirl ಪಾಠಶಾಲೆ | 8660070677

Q. 54kmph ವೇಗದಲ್ಲಿ ಹೋಗುತ್ತಿರುವ ರೈಲೊಂದು 200m ಅಗಲದ ನದಿ ದಂಡೆಯನ್ನು ದಾಟುತ್ತಿದೆ. ಈ ರೈಲು 400 ಮೀ ಉದ್ದವಿದ್ದು ರೈಲು ಸಂಪೂರ್ಣವಾಗಿ ಹೊರಬರಲು ಎಷ್ಟು ಸಮಯ ತಗಲುತ್ತದೆ?

(In seconds)

a)40 b)30 c)50 d)25

ಸಮಯ $= \dfrac{600}{\cancel{54}^{3} \times \dfrac{5}{\cancel{18}_{1}}} = \dfrac{600}{15} = \underline{\underline{40}}$

iGacademy Download App in PlayStore SUBSCRIBE IshwarGiri ಪಾಠಶಾಲೆ 8660070677

Q. A train traveling at 90 km / hr enters a 350m long tunnel. How long does it take to cross the tunnel if the train is 400m long

90kmph ವೇಗದಲ್ಲಿ ಹೋಗುತ್ತಿರುವ ರೈಲೊಂದು **350**ಮೀ ಉದ್ದದ ಸುರಂಗವನ್ನು ಪ್ರವೇಶಿಸುತ್ತದೆ . ಈ ರೈಲು **400**ಮೀ ಉದ್ದವಿದ್ದು ರೈಲು ಸುರಂಗದಿಂದ ಸಂಪೂರ್ಣವಾಗಿ ಹೊರಬರಲು ಎಷ್ಟು ಸಮಯ ತಗಲುತ್ತದೆ? **(In seconds)**

a)20 **b)30** **c)24** **d)36**

IGacademy Download App in PlayStore | SUBSCRIBE IshwarGiri ಪಾಠಶಾಲೆ | 8660070677

Q. 90kmph ವೇಗದಲ್ಲಿ ಹೋಗುತ್ತಿರುವ ರೈಲೊಂದು 350ಮೀ ಉದ್ದದ ಸುರಂಗವನ್ನು ಪ್ರವೇಶಿಸುತ್ತದೆ . ಈ ರೈಲು 400ಮೀ ಉದ್ದವಿದ್ದು ರೈಲು ಸುರಂಗದಿಂದ ಸಂಪೂರ್ಣವಾಗಿ ಹೊರಬರಲು ಎಷ್ಟು ಸಮಯ ತಗಲುತ್ತದೆ? (In seconds)

a)20 b)30 c)24 d)36

$$\frac{750}{90 \times \frac{5}{18}} = \frac{750}{25} = 30 \text{ Sec}$$

IGacademy Download App in PlayStore SUBSCRIBE IshwarGiri ಪಾಠಶಾಲೆ 8660070677

ಪರಸ್ಪರ ವಿರುದ್ಧ ದಿಕ್ಕಿನಲ್ಲಿ ದಾಟುವುದು

IGacademy Download App in PlayStore | SUBSCRIBE IshwarGiri ಪಾಠಶಾಲೆ | 8660070677

IGacademy Download App in PlayStore | SUBSCRIBE IshwarGiri ಪಾಠಶಾಲೆ | 8660070677

IGacademy Download App in PlayStore | SUBSCRIBE IshwarGirl ಪಾಠಶಾಲೆ | 8660070677

IGacademy Download App in PlayStore SUBSCRIBE IshwarGiri ಪಾಠಶಾಲೆ 8660070677

ಪರಸ್ಪರ ವಿರುದ್ಧ ದಿಕ್ಕಿನಲ್ಲಿ ಚಾಟುವುದು



ದೂರ = ಎರಡು ರೈಲಿನ ಉದ್ದ

ವೇಗ = S1 + S2

$$\text{ವೇಗ} = \frac{\text{ದೂರ}}{\text{ಸಮಯ}}$$

IGacademy Download App in PlayStore | SUBSCRIBE IshwarGiri ಪಾಠಶಾಲೆ | 8660070677

Q. Find the time taken by a 400 m goods train moving at 38 kmph and a 650 m long train moving at 70 kmph in opposite direction to cross each other.

400m ಇರುವ ಗೂಡ್ಸ್ ರೈಲು 38kmph ವೇಗದಲ್ಲಿ ಚಲಿಸುತಿದ್ದು ಮತ್ತು 650 ಮೀ ಉದ್ದದ ರೈಲು 70 kmph ವೇಗದಲ್ಲಿ ವಿರುದ್ಧ ದಿಕ್ಕಿನಲ್ಲಿ ಚಲಿಸುತಿದ್ದು, ಪರಸ್ಪರ ಒಂದನ್ನೊಂದು ದಾಟಲು ತೆಗೆದುಕೊಳ್ಳುವ ಸಮಯವನ್ನು ಕಂಡುಹಿಡಿಯಿರಿ.

a)25s b)30s c)35s d)40s

IGacademy Download App in PlayStore SUBSCRIBE IshwarGirl ಪಾಠಶಾಲೆ 8660070677

Q. 400m ಇರುವ ಗೂಡ್ಸ್ ರೈಲು 38kmph ವೇಗದಲ್ಲಿ ಚಲಿಸುತಿದ್ದು ಮತ್ತು 650 ಮೀ ಉದ್ದದ ರೈಲು 70 kmph ವೇಗದಲ್ಲಿ ವಿರುದ್ಧ ದಿಕ್ಕಿನಲ್ಲಿ ಚಲಿಸುತಿದ್ದು, ಪರಸ್ಪರ ಒಂದನ್ನೊಂದು ದಾಟಲು ತೆಗೆದುಕೊಳ್ಳುವ ಸಮಯವನ್ನು ಕಂಡುಹಿಡಿಯಿರಿ.

a)25s **b)30s** **c)35s** **d)40s**

$$\frac{\text{ದೂರ}}{\text{ವೇಗ}} = \frac{1050}{6 \cancel{10} \times \frac{5}{\cancel{18}}} = \frac{1050}{30} = 35$$

IGacademy Download App in PlayStore | SUBSCRIBE IshwarGiri ಪಾಠಶಾಲೆ | 8660070677

Q. Find the time taken by two trains of length 300m and 400m running in opposite direction with the speed of 72kmph and 54kmph to cross each other.

300 ಮೀ ಮತ್ತು 400 ಮೀ ಉದ್ದದ ಎರಡು ರೈಲುಗಳು 72 kmph ಮತ್ತು 54 kmph ವೇಗದಲ್ಲಿ ವಿರುದ್ಧ ದಿಕ್ಕಿನಲ್ಲಿ ಚಲಿಸುತಿದ್ದು, ಪರಸ್ಪರ ಒಂದನ್ನೊಂದು ದಾಟಲು ತೆಗೆದುಕೊಳ್ಳುವ ಸಮಯವನ್ನು ಕಂಡುಹಿಡಿಯಿರಿ.

a)25s b)40s c)20s d)30s

IGacademy Download App in PlayStore SUBSCRIBE IshwarGirl ಪಾಠಶಾಲೆ 8660070677

Q. 300 ಮೀ ಮತ್ತು 400 ಮೀ ಉದ್ದದ ಎರಡು ರೈಲುಗಳು 72 kmph ಮತ್ತು 54 kmph ವೇಗದಲ್ಲಿ ವಿರುದ್ಧ ದಿಕ್ಕಿನಲ್ಲಿ ಚಲಿಸುತಿದ್ದು, ಪರಸ್ಪರ ಒಂದನ್ನೊಂದು ದಾಟಲು ತೆಗೆದುಕೊಳ್ಳುವ ಸಮಯವನ್ನು ಕಂಡುಹಿಡಿಯಿರಿ.

a)25s b)40s c)20s d)30s

$\frac{\text{ದೂರ}}{\text{ವೇಗ}} = \frac{700}{126 \times 5/18} = \frac{700}{35} = 20\text{ಸೆ}$

IGacademy Download App in PlayStore SUBSCRIBE IshwarGirl ಪಾಠಶಾಲೆ 8660070677

ಪರಸ್ಪರ ಒಂದೇ ದಿಕ್ಕಿನಲ್ಲಿ ದಾಟುವುದು

IGacademy Download App in PlayStore | SUBSCRIBE IshwarGiri ಪಾಠಶಾಲೆ | 8660070677

IGacademy Download App In PlayStore | SUBSCRIBE IshwarGiri ಪಾಠಶಾಲೆ | 8660070677

IGacademy Download App in PlayStore SUBSCRIBE IshwarGiri ಪಾಠಶಾಲೆ 8660070677

IGacademy Download App in PlayStore | SUBSCRIBE IshwarGiri ಪಾಠಶಾಲೆ | 8660070677

ಪರಸ್ಪರ ಒಂದೇ ದಿಕ್ಕಿನಲ್ಲಿ ದಾಟುವುದು



ವೇಗ = S1 - S2

ದೂರ = ಎರಡು ರೈಲಿನ ಉದ್ದ

IGacademy Download App in PlayStore | SUBSCRIBE IshwarGirl ಪಾಠಶಾಲೆ | 8660070677

Q. Two trains of length 400m run in the same direction on parallel tracks at speeds of 122 kmph and 50 kmph respectively. Time taken by them to cross each other (in seconds):

ಸಮಾನಾಂತರ ಹಳಿಗಳಲ್ಲಿ ಒಂದೇ ದಿಕ್ಕಿನಲ್ಲಿ ಕ್ರಮವಾಗಿ ಗಂಟೆಗೆ 122ಕಿ.ಮೀ ಮತ್ತು ಗಂಟೆಗೆ 50ಕಿ.ಮೀ ವೇಗದಲ್ಲಿ, 400m ಉದ್ದದ ಎರಡು ರೈಲುಗಳು ಚಲಿಸುತ್ತವೆ. ಪರಸ್ಪರ ದಾಟಲು ಅವು ತೆಗೆದುಕೊಳ್ಳುವ ಸಮಯ (ಸೆಕೆಂಡುಗಳಲ್ಲಿ):

a) 30 b)48 c)40 d)35

IGacademy Download App in PlayStore | SUBSCRIBE IshwarGirl ಪಾಠಶಾಲೆ | 8660070677

Q. ಸಮಾನಾಂತರ ಹಳಿಗಳಲ್ಲಿ ಒಂದೇ ದಿಕ್ಕಿನಲ್ಲಿ ಕ್ರಮವಾಗಿ ಗಂಟೆಗೆ 122ಕಿ.ಮೀ ಮತ್ತು ಗಂಟೆಗೆ 50ಕಿ.ಮೀ ವೇಗದಲ್ಲಿ, 400m ಉದ್ದದ ಎರಡು ರೈಲುಗಳು ಚಲಿಸುತ್ತವೆ. ಪರಸ್ಪರ ದಾಟಲು ಅವು ತೆಗೆದುಕೊಳ್ಳುವ ಸಮಯ (ಸೆಕೆಂಡುಗಳಲ್ಲಿ):

a) 30 **b)48** **c)40** **d)35**

ಸಮಯ = ದೂರ / ವೇಗ = $\frac{400+400}{(122-50)\frac{5}{18}} = \frac{800}{72\times 5/18} = \frac{80}{20} = 40$ಸೆ

IGacademy Download App in PlayStore | SUBSCRIBE IshwarGirl ಪಾಠಶಾಲೆ | 8660070677

Q. Two trains of length 250 m and 410 m running at the speed of 120km/hr and 66km/hr respectively in same direction on parallel tracks. The time (in seconds) which they take to cross each other is:

ಸಮಾನಾಂತರ ಹಳಿಗಳಲ್ಲಿ ಒಂದೇ ದಿಕ್ಕಿನಲ್ಲಿ ಕ್ರಮವಾಗಿ ಗಂಟೆಗೆ 120ಕಿ.ಮೀ ಮತ್ತು ಗಂಟೆಗೆ 66ಕಿ.ಮೀ ವೇಗದಲ್ಲಿ 250m ಮತ್ತು 410m ಉದ್ದದ ಎರಡು ರೈಲುಗಳು ಚಲಿಸುತ್ತವೆ. ಪರಸ್ಪರ ದಾಟಲು ಅವು ತೆಗೆದುಕೊಳ್ಳುವ ಸಮಯ (ಸೆಕೆಂಡುಗಳಲ್ಲಿ):

a) 36 b)48 c)40 d)44

IGacademy Download App in PlayStore | SUBSCRIBE IshwarGiri ಪಾಠಶಾಲೆ | 8660070677

Q. ಸಮಾನಾಂತರ ಹಳಿಗಳಲ್ಲಿ ಒಂದೇ ದಿಕ್ಕಿನಲ್ಲಿ ಕ್ರಮವಾಗಿ ಗಂಟೆಗೆ 120ಕಿ.ಮೀ ಮತ್ತು ಗಂಟೆಗೆ 66ಕಿ.ಮೀ ವೇಗದಲ್ಲಿ 250m ಮತ್ತು 410m ಉದ್ದದ ಎರಡು ರೈಲುಗಳು ಚಲಿಸುತ್ತವೆ. ಪರಸ್ಪರ ದಾಟಲು ಅವು ತೆಗೆದುಕೊಳ್ಳುವ ಸಮಯ (ಸೆಕೆಂಡುಗಳಲ್ಲಿ):

a) 36 **b)48** **c)40** **d)44**

$$\frac{\text{ದೂರ}}{\text{ವೇಗ}} = \frac{250+410}{(120-66)\times\frac{5}{18}} = \frac{660}{\frac{54\times5}{18_1}} = \frac{660}{15} = 44$$

IGacademy Download App in PlayStore | SUBSCRIBE IshwarGiri ಪಾಠಶಾಲೆ | 8660070677

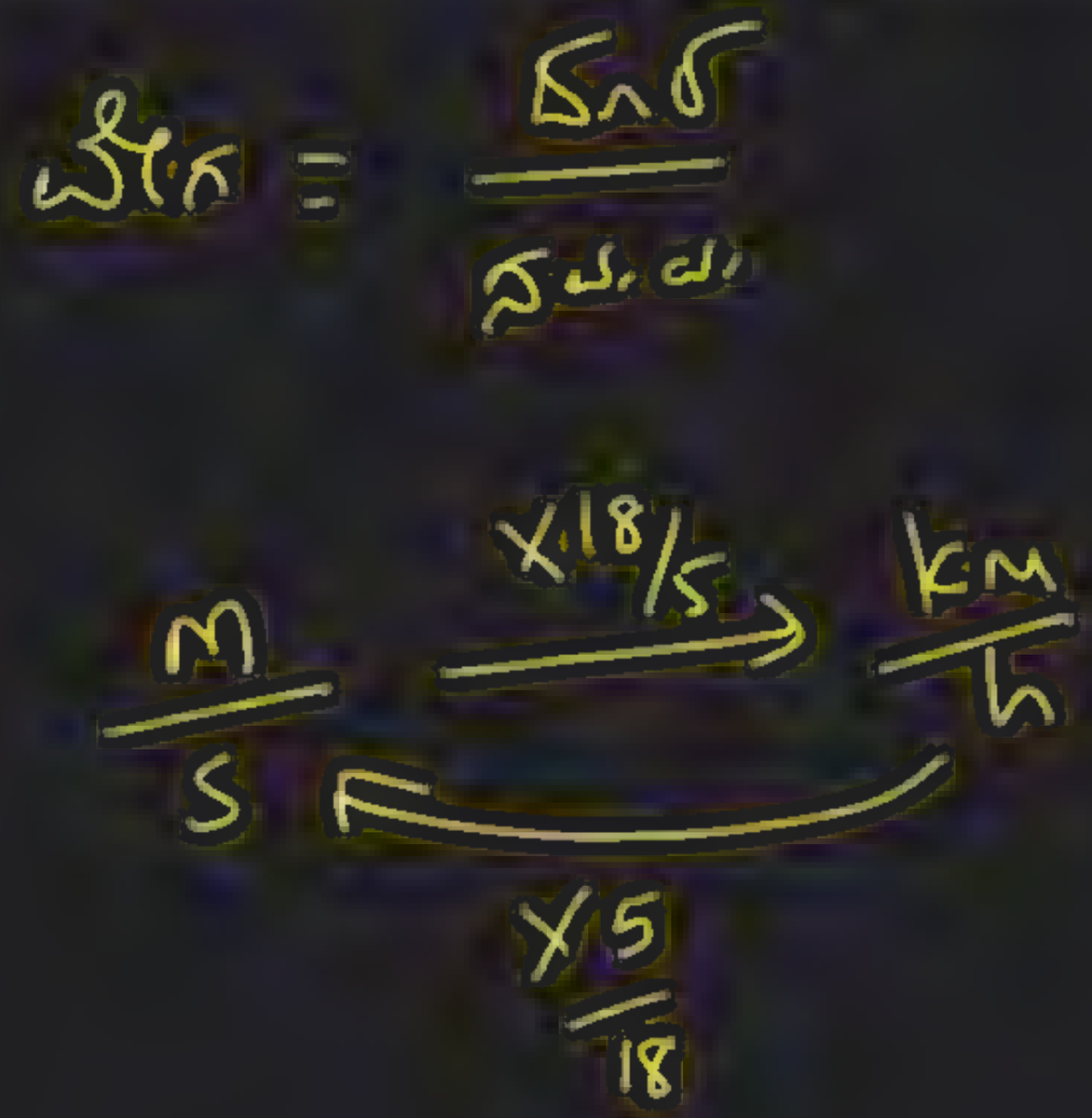
వేగం = దూరం / కాల వ్యవధి
m/s
× 18/5
km/h
÷ 5/18

ರೈಲು ವ್ಯಕ್ತಿ, ಕಂಬ ಅಥವಾ ಮರವನ್ನು ದಾಟುವುದು



IGacademy Download App in PlayStore SUBSCRIBE IshwarGiri ಪಾಠಶಾಲೆ 8660070677



IGacademy Download App in PlayStore | SUBSCRIBE IshwarGiri ಪಾಠಶಾಲೆ | 8660070677



IGacademy Download App in PlayStore SUBSCRIBE IshwarGiri ಪಾಠಶಾಲೆ 8660070677



IGacademy Download App in PlayStore SUBSCRIBE IshwarGiri ಪಾಠಶಾಲೆ 8660070677

ರೈಲು ವ್ಯಕ್ತಿ, ಕಂಬ ಅಥವಾ ಮರವನ್ನು ದಾಟುವುದು



ರೈಲು ಕ್ರಮಿಸುವ ದೂರ

= ರೈಲಿನ ಉದ್ದ + 0

ವೇಗ = ಕೇವಲ ರೈಲಿನ

ವೇಗ

IGacademy Download App in PlayStore | SUBSCRIBE IshwarGirl ಪಾಠಶಾಲೆ | 8660070677

$$\text{వేగం} = \frac{\text{దూరం (m)}}{\text{కాలం (s)}} \times \frac{18}{5}$$

Q. A train of 400m long crosses a electric pole in 16 seconds. Find the speed of the train.

400 ಮೀ ಉದ್ದದ ರೈಲು 16 ಸೆಕೆಂಡುಗಳಲ್ಲಿ ವಿದ್ಯುತ್ ಕಂಬವನ್ನು ದಾಟುತ್ತದೆ. ರೈಲಿನ ವೇಗವನ್ನು ಕಂಡುಹಿಡಿಯಿರಿ.

a)90kmph b)108kmph c)72kmph d)99kmph

IGacademy Download App in PlayStore | SUBSCRIBE IshwarGiri ಪಾಠಶಾಲೆ | 8660070677

Q. 400 ಮೀ ಉದ್ದದ ರೈಲು 16 ಸೆಕೆಂಡುಗಳಲ್ಲಿ ವಿದ್ಯುತ್ ಕಂಬವನ್ನು ದಾಟುತ್ತದೆ. ರೈಲಿನ ವೇಗವನ್ನು ಕಂಡುಹಿಡಿಯಿರಿ.

a)90kmph **b)108kmph** **c)72kmph** **d)99kmph**

ವೇಗ = ದೂರ / ಸಮಯ = 400/16 × 18/5 = 90 kmph

IGacademy Download App in PlayStore | SUBSCRIBE IshwarGiri ಪಾಠಶಾಲೆ | 8660070677

Q. A train of 880m long crosses a tree in 22 seconds. Find the speed of the train.

880 ಮೀ ಉದ್ದದ ರೈಲು 22 ಸೆಕೆಂಡುಗಳಲ್ಲಿ ಮರವನ್ನು ದಾಟುತ್ತದೆ. ರೈಲಿನ ವೇಗವನ್ನು ಕಂಡುಹಿಡಿಯಿರಿ.

a)162kmph b)120kmph c)144kmph d)126kmph

IGacademy Download App in PlayStore | SUBSCRIBE IshwarGiri ಪಾಠಶಾಲೆ | 8660070677

Q. 880 ಮೀ ಉದ್ದದ ರೈಲು 22 ಸೆಕೆಂಡುಗಳಲ್ಲಿ ಮರವನ್ನು ದಾಟುತ್ತದೆ. ರೈಲಿನ ವೇಗವನ್ನು ಕಂಡುಹಿಡಿಯಿರಿ.

a)162kmph **b)120kmph** **c)144kmph** **d)126kmph**

ವೇಗ = ದೂರ / ಸಮಯ = 880/22 × 18/5 = 144 kmph

IGacademy Download App in PlayStore | SUBSCRIBE IshwarGiri ಪಾಠಶಾಲೆ | 8660070677

ರೈಲು ಸೇತುವೆ, ಪ್ಲಾಟ್ ಫಾರಂ ಅಥವಾ ಸುರಂಗವನ್ನು ದಾಟುವುದು

ರೈಲು ಸೇತುವೆ, ಪ್ಲಾಟ್ ಫಾರಂ ಅಥವಾ ಸುರಂಗವನ್ನು ದಾಟುವುದು

ರೈಲು ಕ್ರಮಿಸುವ ದೂರ = ಸೇತುವೆಯ ಉದ್ದ+ ರೈಲಿನ ಉದ್ದ

ವೇಗ = ಕೇವಲ ರೈಲಿನ ವೇಗ

Q. 300m long train crosses a bridge of length 180 in 24 seconds, speed of the train?

300 ಮೀ ಉದ್ದದ ರೈಲು 24 ಸೆಕೆಂಡುಗಳಲ್ಲಿ 180 ಮೀ ಉದ್ದದ ಸೇತುವೆ ದಾಟುತ್ತದೆ, ರೈಲಿನ ವೇಗವನ್ನು ಕಂಡುಹಿಡಿಯಿರಿ.

a)72kmph b)60kmph c)90kmph d)80kmph

IGacademy Download App in PlayStore | SUBSCRIBE IshwarGiri ಪಾಠಶಾಲೆ | 8660070677

Q. 300 ಮೀ ಉದ್ದದ ರೈಲು 24 ಸೆಕೆಂಡುಗಳಲ್ಲಿ 180 ಮೀ ಉದ್ದದ ಸೇತುವೆ ದಾಟುತ್ತದೆ, ರೈಲಿನ ವೇಗವನ್ನು ಕಂಡುಹಿಡಿಯಿರಿ.

a)72kmph **b)60kmph** **c)90kmph** **d)80kmph**

$$\text{ವೇಗ} = \frac{\text{ದೂರ}}{\text{ಸಮಯ}} = \frac{480}{24} \times \frac{18}{5} = 72\ \text{kmph}$$

IGacademy Download App in PlayStore | SUBSCRIBE IshwarGirl ಪಾಠಶಾಲೆ | 8660070677

Q. 500 m long train crosses a tunnel of length 250 in 15 seconds, speed of the train?

500 ಮೀ ಉದ್ದದ ರೈಲು 15 ಸೆಕೆಂಡುಗಳಲ್ಲಿ 250 ಮೀ ಉದ್ದದ ಸುರಂಗವನ್ನು ದಾಟುತ್ತದೆ, ರೈಲಿನ ವೇಗವನ್ನು ಕಂಡುಹಿಡಿಯಿರಿ.

a)144kmph b)180kmph c)162kmph d)126kmph

IGacademy Download App in PlayStore | SUBSCRIBE IshwarGiri ಪಾಠಶಾಲೆ | 8660070677

Q. 500 ಮೀ ಉದ್ದದ ರೈಲು 15 ಸೆಕೆಂಡುಗಳಲ್ಲಿ 250 ಮೀ ಉದ್ದದ ಸುರಂಗವನ್ನು ದಾಟುತ್ತದೆ, ರೈಲಿನ ವೇಗವನ್ನು ಕಂಡುಹಿಡಿಯಿರಿ.

a)144kmph **b)180kmph** **c)162kmph** **d)126kmph**

ವೇಗ = ದೂರ / ಸಮಯ = 750 / 15 × 18 / 5 = 180

IGacademy Download App in PlayStore SUBSCRIBE IshwarGiri ಪಾಠಶಾಲೆ 8660070677

ಪರಸ್ಪರ ವಿರುದ್ಧ ದಿಕ್ಕಿನಲ್ಲಿ ದಾಟುವುದು

IGacademy Download App in PlayStore | SUBSCRIBE IshwarGiri ಪಾಠಶಾಲೆ | 8660070677

IGacademy Download App in PlayStore | SUBSCRIBE IshwarGiri ಪಾಠಶಾಲೆ | 8660070677

IGacademy Download App in PlayStore SUBSCRIBE IshwarGirl ಪಾಠಶಾಲೆ 8660070677

$S_1 = 40 \quad S_2 = 9$



ವೇಗ = ವಿರುದ್ಧ ವೇಗ = $S_1 + S_2 = 49$

IGacademy Download App in PlayStore | SUBSCRIBE IshwarGirl ಪಾಠಶಾಲೆ | 8660070677

ಪರಸ್ಪರ ವಿರುದ್ಧ ದಿಕ್ಕಿನಲ್ಲಿ ದಾಟುವುದು



ದೂರ = ಎರಡು ರೈಲಿನ ಉದ್ದ

ದೂರ ವೇಗ = S1 + S2

ವೇಗ = $\frac{\text{ದೂರ}}{\text{ಸಮಯ}}$

IGacademy Download App in PlayStore | SUBSCRIBE IshwarGiri ಪಾಠಶಾಲೆ | 8660070677

Q. Two trains of length 200m and 400m running in opposite direction cross each other in 24seconds. If speed of one train is 50kmph then find the speed of another train.

ವಿರುದ್ಧ ದಿಕ್ಕಿನಲ್ಲಿ ಚಲಿಸುವ 200 ಮೀ ಮತ್ತು 400 ಮೀ ಉದ್ದದ ಎರಡು ರೈಲುಗಳು 24 ಸೆಕೆಂಡುಗಳಲ್ಲಿ ಪರಸ್ಪರ ದಾಟುತ್ತವೆ. ಒಂದು ರೈಲಿನ ವೇಗ 50 kmph ಆಗಿದ್ದರೆ, ಮತ್ತೊಂದು ರೈಲಿನ ವೇಗವನ್ನು ಕಂಡುಹಿಡಿಯಿರಿ.

a) 40kmph b)30kmph c)45kmph d)36kmph

IGacademy Download App in PlayStore SUBSCRIBE IshwarGiri ಪಾಠಶಾಲೆ 8660070677

Q. ವಿರುದ್ಧ ದಿಕ್ಕಿನಲ್ಲಿ ಚಲಿಸುವ 200 ಮೀ ಮತ್ತು 400 ಮೀ ಉದ್ದದ ಎರಡು ರೈಲುಗಳು 24 ಸೆಕೆಂಡುಗಳಲ್ಲಿ ಪರಸ್ಪರ ದಾಟುತ್ತವೆ. ಒಂದು ರೈಲಿನ ವೇಗ 50 kmph ಆಗಿದ್ದರೆ, ಮತ್ತೊಂದು ರೈಲಿನ ವೇಗವನ್ನು ಕಂಡುಹಿಡಿಯಿರಿ.

a) 40kmph b)30kmph c)45kmph d)36kmph

$$50 + ? = \frac{\overset{30}{\cancel{600}}}{\underset{\cancel{4}}{\cancel{24}}} \times \frac{\overset{3}{\cancel{18}}}{\cancel{5}}$$

$$50 + ? = 90$$

40

iGacademy Download App in PlayStore SUBSCRIBE IshwarGiri ಪಾಠಶಾಲೆ 8660070677

Q. Two trains of length 500m and 400m running in opposite direction cross each other in 60 seconds. If speed of one train is 30 kmph then find the speed of another train.

ವಿರುದ್ಧ ದಿಕ್ಕಿನಲ್ಲಿ ಚಲಿಸುವ 500 ಮೀ ಮತ್ತು 400 ಮೀ ಉದ್ದದ ಎರಡು ರೈಲುಗಳು 60 ಸೆಕೆಂಡುಗಳಲ್ಲಿ ಪರಸ್ಪರ ದಾಟುತ್ತವೆ. ಒಂದು ರೈಲಿನ ವೇಗ 30kmph ಆಗಿದ್ದರೆ, ಮತ್ತೊಂದು ರೈಲಿನ ವೇಗವನ್ನು ಕಂಡುಹಿಡಿಯಿರಿ.

a) 24kmph b)18kmph c)22kmph d)28kmph

IGacademy Download App in PlayStore SUBSCRIBE IshwarGiri ಪಾಠಶಾಲೆ 8660070677

Q. ವಿರುದ್ಧ ದಿಕ್ಕಿನಲ್ಲಿ ಚಲಿಸುವ 500 ಮೀ ಮತ್ತು 400 ಮೀ ಉದ್ದದ ಎರಡು ರೈಲುಗಳು 60 ಸೆಕೆಂಡುಗಳಲ್ಲಿ ಪರಸ್ಪರ ದಾಟುತ್ತವೆ. ಒಂದು ರೈಲಿನ ವೇಗ 30kmph ಆಗಿದ್ದರೆ, ಮತ್ತೊಂದು ರೈಲಿನ ವೇಗವನ್ನು ಕಂಡುಹಿಡಿಯಿರಿ.

a) 24kmph **b)18kmph** **c)22kmph** **d)28kmph**

$$30 + ? = \frac{900}{60} \times \frac{18}{5}$$

$$30 + 9 = 54$$

24

IGacademy Download App in PlayStore | SUBSCRIBE IshwarGiri ಪಾಠಶಾಲೆ | 8660070677

ಪರಸ್ಪರ ಒಂದೇ ದಿಕ್ಕಿನಲ್ಲಿ ದಾಟುವುದು

IGacademy Download App in PlayStore | SUBSCRIBE IshwarGiri ಪಾಠಶಾಲೆ | 8660070677

IGacademy Download App In PlayStore SUBSCRIBE IshwarGiri ಪಾಠಶಾಲೆ 8660070677

IGacademy Download App in PlayStore SUBSCRIBE IshwarGiri ಪಾಠಶಾಲೆ 8660070677

$S = 50 - 40 = 10 \text{ km/h}$

$D = 200 + 200 = 400$

IGacademy Download App in PlayStore | SUBSCRIBE IshwarGirl ಪಾಠಶಾಲೆ | 8660070677

ಪರಸ್ಪರ ಒಂದೇ ದಿಕ್ಕಿನಲ್ಲಿ ದಾಟುವುದು



ವೇಗ = S1 - S2

ದೂರ = ಎರಡು ರೈಲಿನ ಉದ್ದ

IGacademy Download App in PlayStore | SUBSCRIBE IshwarGirl ಪಾಠಶಾಲೆ | 8660070677

Q. Two trains of length 250 m and 450m running in same direction cross each other in 20 seconds. If speed of one train is 60 kmph then find the speed of another train.

ಒಂದೇ ದಿಕ್ಕಿನಲ್ಲಿ ಚಲಿಸುವ 250 ಮೀ ಮತ್ತು 450 ಮೀ ಉದ್ದದ ಎರಡು ರೈಲುಗಳು 20 ಸೆಕೆಂಡುಗಳಲ್ಲಿ ಪರಸ್ಪರ ಹಾದು ಹೋಗುತ್ತವೆ . ಮುಂದಿರುವ ರೈಲಿನ ವೇಗ 60 kmph ಆಗಿದ್ದರೆ , ಹಿಂದಿರುವ ರೈಲಿನ ವೇಗವನ್ನು ಕಂಡುಹಿಡಿಯಿರಿ .

a)66kmph b)186kmph c)126kmph d)206kmph

IGacademy Download App in PlayStore SUBSCRIBE IshwarGiri ಪಾಠಶಾಲೆ 8660070677

Q. ಒಂದೇ ದಿಕ್ಕಿನಲ್ಲಿ ಚಲಿಸುವ 250 ಮೀ ಮತ್ತು 450 ಮೀ ಉದ್ದದ ಎರಡು ರೈಲುಗಳು 20 ಸೆಕೆಂಡುಗಳಲ್ಲಿ ಪರಸ್ಪರ ಹಾದು ಹೋಗುತ್ತವೆ . ಮುಂದಿರುವ ರೈಲಿನ ವೇಗ 60 kmph ಆಗಿದ್ದರೆ , ಹಿಂದಿರುವ ರೈಲಿನ ವೇಗವನ್ನು ಕಂಡುಹಿಡಿಯಿರಿ .

a)66kmph **b)186kmph** **c)126kmph** **d)206kmph**

$? - 60 = \frac{700}{20} \times \frac{18}{5}$ (7)

$? - 60 = 126$

186 → 60 → ಉತ್ತರ = 126

IGacademy Download App in PlayStore | SUBSCRIBE IshwarGiri ಪಾಠಶಾಲೆ | 8660070677

Q. Two trains of length 310 m and 590m running in same direction cross each other in 45 seconds. If speed of one train is 50kmph then find the speed of another train.

ಒಂದೇ ದಿಕ್ಕಿನಲ್ಲಿ ಚಲಿಸುವ 310 ಮೀ ಮತ್ತು 590 ಮೀ ಉದ್ದದ ಎರಡು ರೈಲುಗಳು 45 ಸೆಕೆಂಡುಗಳಲ್ಲಿ ಪರಸ್ಪರ ಹಾದು ಹೋಗುತ್ತವೆ. ಮುಂದಿರುವ ರೈಲಿನ ವೇಗ 50kmph ಆಗಿದ್ದರೆ, ಹಿಂದಿರುವ ರೈಲಿನ ವೇಗವನ್ನು ಕಂಡುಹಿಡಿಯಿರಿ .

a)136kmph b)122kmph c)72kmph d)144kmph

IGacademy Download App in PlayStore | SUBSCRIBE IshwarGiri ಪಾಠಶಾಲೆ | 8660070677

Q. ಒಂದೇ ದಿಕ್ಕಿನಲ್ಲಿ ಚಲಿಸುವ 310 ಮೀ ಮತ್ತು 590 ಮೀ ಉದ್ದದ ಎರಡು ರೈಲುಗಳು 45 ಸೆಕೆಂಡುಗಳಲ್ಲಿ ಪರಸ್ಪರ ಹಾದು ಹೋಗುತ್ತವೆ. ಮುಂದಿರುವ ರೈಲಿನ ವೇಗ 50kmph ಆಗಿದ್ದರೆ, ಹಿಂದಿರುವ ರೈಲಿನ ವೇಗವನ್ನು ಕಂಡುಹಿಡಿಯಿರಿ .

a)136kmph b)122kmph c)72kmph d)144kmph

$$? - 50 = \frac{900}{45} \times \frac{18}{5}$$

$$? - 50 = 72$$

122

IGacademy Download App in PlayStore | SUBSCRIBE IshwarGiri ಪಾಠಶಾಲೆ | 8660070677

Q. A 280 metre long train crosses a man in 20 seconds while crosses a tunnel in 50 second. What is the length of the tunnel?

280 ಉದ್ದದ ರೈಲು 20 ಸೆಕೆಂಡುಗಳಲ್ಲಿ ವ್ಯಕ್ತಿಯೊಬ್ಬನನ್ನು ದಾಟುತ್ತದೆ ಮತ್ತು ಅದೇ ರೈಲು ಸುರಂಗವನ್ನು ದಾಟಲು 50 ಸೆಕೆಂಡುಗಳನ್ನು ತೆಗೆದುಕೊಂಡರೆ ಸುರಂಗದ ಉದ್ದ?

a)450m b)420m c)400m d)500m

IGacademy Download App in PlayStore SUBSCRIBE IshwarGiri ಪಾಠಶಾಲೆ 8660070677

Q. 280 ಉದ್ದದ ರೈಲು 20 ಸೆಕೆಂಡುಗಳಲ್ಲಿ ವ್ಯಕ್ತಿಯೊಬ್ಬನನ್ನು ದಾಟುತ್ತದೆ ಮತ್ತು ಅದೇ ರೈಲು ಸುರಂಗವನ್ನು ದಾಟಲು 50 ಸೆಕೆಂಡುಗಳನ್ನು ತೆಗೆದುಕೊಂಡರೆ ಸುರಂಗದ ಉದ್ದ?

a)450m b)420m c)400m d)500m

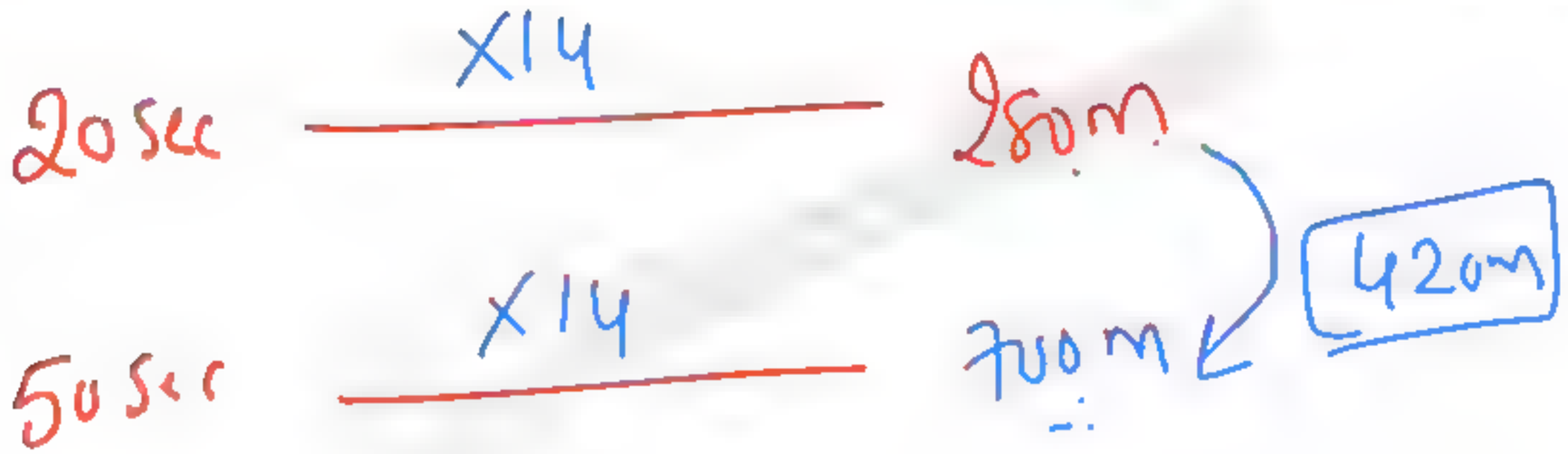

IGacademy Download App in PlayStore SUBSCRIBE IshwarGiri ಪಾಠಶಾಲೆ 8660070677

< ರೈಲಿನ ಉದ್ದ = 280m >

ದಾಟುವ ಸಮಯ = 20 sec

< ರೈಲಿನ ಉದ್ದ =280 m>

ದಾಟುವ ಸಮಯ = 50 sec

< ಸುರಂಗದ ಉದ್ದ = ? >

Q. A 360 metre long train crosses a poll in 12 seconds while crosses a bridge in 30 second. What is the length of the bridge?

360 ಮೀಟರ್ ಉದ್ದದ ರೈಲು 12 ಸೆಕೆಂಡುಗಳಲ್ಲಿ ಕಂಬವನ್ನು ದಾಟಿದರೆ, ಅದೇ ರೈಲು ಸೇತುವೆಯನ್ನು 30 ಸೆಕೆಂಡುಗಳಲ್ಲಿ ದಾಟುತ್ತದೆ. ಸೇತುವೆಯ ಉದ್ದ ಎಷ್ಟು?

a)540m b)600m c)450m d)500m

IGacademy Download App in PlayStore SUBSCRIBE IshwarGirl ಪಾಠಶಾಲೆ 8660070677

Q. 360 ಮೀಟರ್ ಉದ್ದದ ರೈಲು 12 ಸೆಕೆಂಡುಗಳಲ್ಲಿ ಕಂಬವನ್ನು ದಾಟಿದರೆ, ಅದೇ ರೈಲು ಸೇತುವೆಯನ್ನು 30 ಸೆಕೆಂಡುಗಳಲ್ಲಿ ದಾಟುತ್ತದೆ. ಸೇತುವೆಯ ಉದ್ದ ಎಷ್ಟು?

a)540m b)600m c)450m d)500m

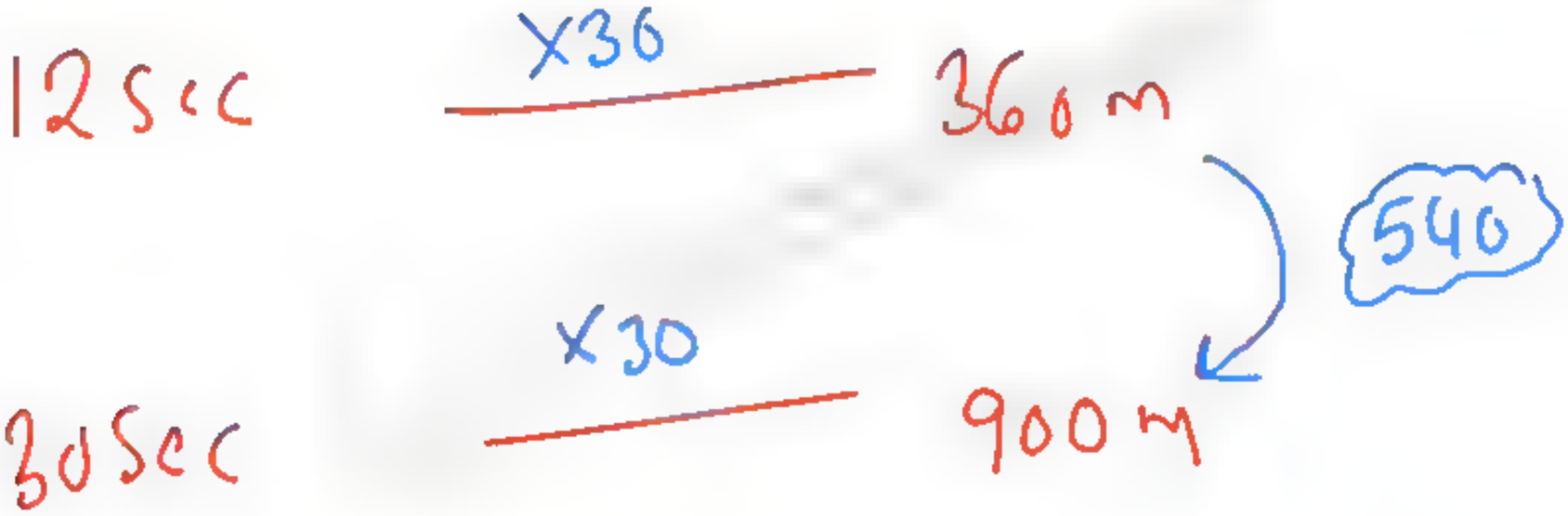

IGacademy Download App in PlayStore | SUBSCRIBE IshwarGiri ಪಾಠಶಾಲೆ | 8660070677

< ರೈಲಿನ ಉದ್ದ = 360m >

ದಾಟುವ ಸಮಯ = 12 sec

< ರೈಲಿನ ಉದ್ದ= 360 m>

ದಾಟುವ ಸಮಯ = 30 sec

< ಸೇತುವೆಯ ಉದ್ದ = ? >

Q. A man is standing on a 900 metre long platform a train crosses the platform in 25 seconds but it crosses that man in 10 seconds. What is the length of the train?

ಒಬ್ಬ ವ್ಯಕ್ತಿ 900 ಮೀಟರ್ ಉದ್ದದ ಪ್ಲಾಟ್‌ಫಾರ್ಮ್ ಮೇಲೆ ನಿಂತಿದ್ದಾನೆ, ರೈಲು 25 ಸೆಕೆಂಡುಗಳಲ್ಲಿ ಪ್ಲಾಟ್‌ಫಾರ್ಮ್ ಅನ್ನು ದಾಟುತ್ತದೆ ಆದರೆ ಅದು ಆ ಮನುಷ್ಯನನ್ನು 10 ಸೆಕೆಂಡುಗಳಲ್ಲಿ ದಾಟುತ್ತದೆ. ರೈಲಿನ ಉದ್ದ ಎಷ್ಟು?

(a) 500 metre (b) 600 metre (c) 750 metre (d) 400 metre

IGacademy Download App in PlayStore | SUBSCRIBE IshwarGiri ಪಾಠಶಾಲೆ | 8660070677

Q. ಒಬ್ಬ ವ್ಯಕ್ತಿ 900 ಮೀಟರ್ ಉದ್ದದ ಪ್ಲಾಟ್‌ಫಾರ್ಮ್ ಮೇಲೆ ನಿಂತಿದ್ದಾನೆ, ರೈಲು 25 ಸೆಕೆಂಡುಗಳಲ್ಲಿ ಪ್ಲಾಟ್‌ಫಾರ್ಮ್ ಅನ್ನು ದಾಟುತ್ತದೆ ಆದರೆ ಅದು ಆ ಮನುಷ್ಯನನ್ನು 10 ಸೆಕೆಂಡುಗಳಲ್ಲಿ ದಾಟುತ್ತದೆ. ರೈಲಿನ ಉದ್ದ ಎಷ್ಟು?

(a) 500 metre (b) 600 metre (c) 750 metre (d) 400 metre

25 - 10 ——— 900 + TL

25 - 10 ⇒ 15 sec PL —— ×60 —— 900 pL

10 sec —— ×60 —— 600m

iGacademy Download App in PlayStore | SUBSCRIBE IshwarGiri ಪಾಠಶಾಲೆ | 8660070677

Q. A man is standing on a 480 metre long platform a train crosses the platform in 35 seconds but it crosses that man in 25 seconds. What is the length of the train?

ಒಬ್ಬ ವ್ಯಕ್ತಿ 480 ಮೀಟರ್ ಉದ್ದದ ಪ್ಲಾಟ್‌ಫಾರ್ಮ್ ಮೇಲೆ ನಿಂತಿದ್ದಾನೆ, ರೈಲು 35 ಸೆಕೆಂಡುಗಳಲ್ಲಿ ಪ್ಲಾಟ್‌ಫಾರ್ಮ್ ಅನ್ನು ದಾಟುತ್ತದೆ ಆದರೆ ಅದು ಆ ಮನುಷ್ಯನನ್ನು 25 ಸೆಕೆಂಡುಗಳಲ್ಲಿ ದಾಟುತ್ತದೆ. ರೈಲಿನ ಉದ್ದ ಎಷ್ಟು?

(a) 960 metre (b) 1000 metre (c) 1200 metre (d) 1500 metre

IGacademy Download App in PlayStore | SUBSCRIBE IshwarGiri ಪಾಠಶಾಲೆ | 8660070677

Q. ಒಬ್ಬ ವ್ಯಕ್ತಿ 480 ಮೀಟರ್ ಉದ್ದದ ಪ್ಲಾಟ್‌ಫಾರ್ಮ್ ಮೇಲೆ ನಿಂತಿದ್ದಾನೆ, ರೈಲು 35 ಸೆಕೆಂಡುಗಳಲ್ಲಿ ಪ್ಲಾಟ್‌ಫಾರ್ಮ್ ಅನ್ನು ದಾಟುತ್ತದೆ ಆದರೆ ಅದು ಆ ಮನುಷ್ಯನನ್ನು 25 ಸೆಕೆಂಡುಗಳಲ್ಲಿ ದಾಟುತ್ತದೆ. ರೈಲಿನ ಉದ್ದ ಎಷ್ಟು?

(a) 960 metre (b) 1000 metre (c) 1200 metre (d) 1500 metre

35-25 => 10 sec PL ——— x48 ——— 480

25 sec ——— x48 ——— 1200

iGacademy Download App in PlayStore SUBSCRIBE IshwarGiri ಪಾಠಶಾಲೆ 8660070677

Q. A train passes two platform of lengths 200 m and 500 m in 25 seconds and 40 seconds respectively. The length of the train is

ಒಂದು ರೈಲು 200 ಮೀ ಮತ್ತು 500 ಮೀ ಉದ್ದದ ಎರಡು ಪ್ಲಾಟಫಾರಂಗಳನ್ನು ಕ್ರಮವಾಗಿ 25 ಸೆಕೆಂಡುಗಳು ಮತ್ತು 40 ಸೆಕೆಂಡುಗಳಲ್ಲಿ ಹಾದುಹೋಗುತ್ತದೆ. ಹಾಗಾದರೆ ರೈಲಿನ ಉದ್ದ ಎಷ್ಟು?

(a) 400 m **(b) 300 m** **(c) 500 m** **(d) 200 m**

IGacademy Download App in PlayStore SUBSCRIBE IshwarGirl ಪಾಠಶಾಲೆ 8660070677

Q. ಒಂದು ರೈಲು 200 ಮೀ ಮತ್ತು 500 ಮೀ ಉದ್ದದ ಎರಡು ಪ್ಲಾಟಫಾರಂಗಳನ್ನು ಕ್ರಮವಾಗಿ 25 ಸೆಕೆಂಡುಗಳು ಮತ್ತು 40 ಸೆಕೆಂಡುಗಳಲ್ಲಿ ಹಾದುಹೋಗುತ್ತದೆ. ಹಾಗಾದರೆ ರೈಲಿನ ಉದ್ದ ಎಷ್ಟು?

(a) 400 m **(b) 300 m** **(c) 500 m** **(d) 200 m**

IGacademy Download App in PlayStore | SUBSCRIBE IshwarGiri ಪಾಠಶಾಲೆ | 8660070677

ದಾಟುವ ಸಮಯ = 25 sec

< ಪ್ಲಾಟ್ಫಾರಂ ಉದ್ದ = 200m >

ದಾಟುವ ಸಮಯ = 40 sec

< ಪ್ಲಾಟ್ಫಾರಂ ಉದ್ದ = 500m >

25s (PL1 + TL) ---------- 200m (PL1)

40s (PL2 + TL) ---------- 500m (PL2)

15s ---------- 300m

40s ---------- 800m

TL = 300m

Q. A train passes two tunnels of lengths 240 m and 360 m in 40 seconds and 52 seconds respectively. The length of the train is

ಒಂದು ರೈಲು 240 ಮೀ ಮತ್ತು 360 ಮೀ ಉದ್ದದ ಎರಡು ಸುರಂಗಗಳನ್ನು ಕ್ರಮವಾಗಿ 40 ಸೆಕೆಂಡುಗಳು ಮತ್ತು 52 ಸೆಕೆಂಡುಗಳಲ್ಲಿ ಹಾದುಹೋಗುತ್ತದೆ. ಹಾಗಾದರೆ ರೈಲಿನ ಉದ್ದ ಎಷ್ಟು?

(a) 180 m (b) 120 m (c) 200 m (d) 160 m

IGacademy Download App in PlayStore SUBSCRIBE IshwarGirl ಪಾಠಶಾಲೆ 8660070677

Q. ಒಂದು ರೈಲು 240 ಮೀ ಮತ್ತು 360 ಮೀ ಉದ್ದದ ಎರಡು ಸುರಂಗಗಳನ್ನು ಕ್ರಮವಾಗಿ 40 ಸೆಕೆಂಡುಗಳು ಮತ್ತು 52 ಸೆಕೆಂಡುಗಳಲ್ಲಿ ಹಾದುಹೋಗುತ್ತದೆ. ಹಾಗಾದರೆ ರೈಲಿನ ಉದ್ದ ಎಷ್ಟು?

(a) 180 m (b) 120 m (c) 200 m (d) 160 m

IGacademy Download App in PlayStore SUBSCRIBE IshwarGiri ಪಾಠಶಾಲೆ 8660070677

< ರೈಲಿನ ಉದ್ದ = ? >
ದಾಟುವ ಸಮಯ = 40 sec
< ಪ್ಲಾಟ್ಫಾರಂ ಉದ್ದ = 240m >

< ರೈಲಿನ ಉದ್ದ = ? >
ದಾಟುವ ಸಮಯ = 52 sec
< ಪ್ಲಾಟ್ಫಾರಂ ಉದ್ದ = 360m >

40s (PL1 + TL) ——— 240m (PL1)

52s (PL2 + TL) ——— 360m (PL2)

12s ——— 120m

52s ——— 520m

TL = 160m

Q. A train running at a speed of 30 m/s crosses a pole in 15 sec less than the time it requires to cross a bridge 4 times its length at the same speed. What is the length of the bridge?

30 ಮೀ./ಸೆಕೆಂಡ್ ವೇಗದಲ್ಲಿ ಚಲಿಸುವ ರೈಲು, ಅದೇ ವೇಗದಲ್ಲಿ ಕಂಬವನ್ನು ದಾಟಲು, ಅದರ 4 ಪಟ್ಟು ಉದ್ದ ಇರುವ ಸೇತುವೆಯನ್ನು ದಾಟಲು ಬೇಕಿರುವ ಸಮಯಕ್ಕಿಂತ 15 ಸೆಕೆಂಡ್ ಕಡಿಮೆ ಸಮಯ ತೆಗೆದುಕೊಳ್ಳುತ್ತದೆ. ಸೇತುವೆಯ ಉದ್ದ ಎಷ್ಟು?

(a) 450 m (b) 300 m (c) 560 m (d) 600 m

IGacademy Download App in PlayStore SUBSCRIBE IshwarGiri ಪಾಠಶಾಲೆ 8660070677

Q. 30 ಮೀ./ಸೆಕೆಂಡ್ ವೇಗದಲ್ಲಿ ಚಲಿಸುವ ರೈಲು, ಅದೇ ವೇಗದಲ್ಲಿ ಕಂಬವನ್ನು ದಾಟಲು, ಅದರ 4 ಪಟ್ಟು ಉದ್ದ ಇರುವ ಸೇತುವೆಯನ್ನು ದಾಟಲು ಬೇಕಿರುವ ಸಮಯಕ್ಕಿಂತ 15 ಸೆಕೆಂಡ್ ಕಡಿಮೆ ಸಮಯ ತೆಗೆದುಕೊಳ್ಳುತ್ತದೆ. ಸೇತುವೆಯ ಉದ್ದ ಎಷ್ಟು?

(a) 450 m **(b) 300 m** **(c) 560 m** **(d) 600 m**

IGacademy Download App in PlayStore | SUBSCRIBE IshwarGiri ಪಾಠಶಾಲೆ | 8660070677

Q. A train running at a speed of 40 m/s crosses a pole in 24 sec less than the time it requires to cross a bridge 3 times its length at the same speed. What is the length of the bridge?

40 ಮೀ./ಸೆಕೆಂಡ್ ವೇಗದಲ್ಲಿ ಚಲಿಸುವ ರೈಲು, ಅದೇ ವೇಗದಲ್ಲಿ ಕಂಬವನ್ನು ದಾಟಲು, ಅದರ 3 ಪಟ್ಟು ಉದ್ದ ಇರುವ ಸೇತುವೆಯನ್ನು ದಾಟಲು ಬೇಕಿರುವ ಸಮಯಕ್ಕಿಂತ 24 ಸೆಕೆಂಡ್ ಕಡಿಮೆ ಸಮಯ ತೆಗೆದುಕೊಳ್ಳುತ್ತದೆ. ಸೇತುವೆಯ ಉದ್ದ ಎಷ್ಟು?

(a) 900 m (b) 960 m (c) 720 m (d) 800 m

IGacademy Download App in PlayStore | SUBSCRIBE IshwarGirl ಪಾಠಶಾಲೆ | 8660070677

Q. 40 ಮೀ./ಸೆಕೆಂಡ್ ವೇಗದಲ್ಲಿ ಚಲಿಸುವ ರೈಲು, ಅದೇ ವೇಗದಲ್ಲಿ ಕಂಬವನ್ನು ದಾಟಲು, ಅದರ 3 ಪಟ್ಟು ಉದ್ದ ಇರುವ ಸೇತುವೆಯನ್ನು ದಾಟಲು ಬೇಕಿರುವ ಸಮಯಕ್ಕಿಂತ 24 ಸೆಕೆಂಡ್ ಕಡಿಮೆ ಸಮಯ ತೆಗೆದುಕೊಳ್ಳುತ್ತದೆ. ಸೇತುವೆಯ ಉದ್ದ ಎಷ್ಟು?

(a) 900 m (b) 960 m (c) 720 m (d) 800 m

iGacademy Download App in PlayStore SUBSCRIBE IshwarGiri ಪಾಠಶಾಲೆ 8660070677

ಪರಸ್ಪರ ಒಂದೇ ದಿಕ್ಕಿನಲ್ಲಿ ದಾಟುವುದು



ಪರಸ್ಪರ ಒಂದೇ ದಿಕ್ಕಿನಲ್ಲಿ ದಾಟುವುದು



ವೇಗ = St - Sm

ದೂರ = ರೈಲಿನ ಉದ್ದ

Q. A train 240 metres long is running with a speed of 42kmph. In what time will it pass a man who is running at 6kmph in the same direction in which the train is going?

240m ಉದ್ದದ ಮತ್ತು ಗಂಟೆಗೆ 42km ವೇಗದಲ್ಲಿ ಚಲಿಸುತ್ತಿರುವ ರೈಲು ಅದೇ ದಿಕ್ಕಿನಲ್ಲಿ 6kmph ವೇಗದಲ್ಲಿ ಚಲಿಸುತ್ತಿರುವ ವ್ಯಕ್ತಿಯನ್ನು ಎಷ್ಟು ಸಮಯದಲ್ಲಿ ದಾಟುತ್ತದೆ?

a) 20 b) 32 c) 24 d)35

IGacademy Download App in PlayStore SUBSCRIBE IshwarGiri ಪಾಠಶಾಲೆ 8660070677

Q. 240m ಉದ್ದದ ಮತ್ತು ಗಂಟೆಗೆ 42km ವೇಗದಲ್ಲಿ ಚಲಿಸುತ್ತಿರುವ ರೈಲು ಅದೇ ದಿಕ್ಕಿನಲ್ಲಿ 6kmph ವೇಗದಲ್ಲಿ ಚಲಿಸುತ್ತಿರುವ ವ್ಯಕ್ತಿಯನ್ನು ಎಷ್ಟು ಸಮಯದಲ್ಲಿ ದಾಟುತ್ತದೆ?

a) 20 b) 32 c) 24 d)35

IGacademy Download App in PlayStore SUBSCRIBE IshwarGiri ಪಾಠಶಾಲೆ 8660070677

Q. A train 320 metres long is running with a speed of 84kmph. In what time will it pass a man who is running at 12kmph in the same direction in which the train is going?

320m ಉದ್ದದ ಮತ್ತು ಗಂಟೆಗೆ 84km ವೇಗದಲ್ಲಿ ಚಲಿಸುತ್ತಿರುವ ರೈಲು ಅದೇ ದಿಕ್ಕಿನಲ್ಲಿ 12kmph ವೇಗದಲ್ಲಿ ಚಲಿಸುತ್ತಿರುವ ವ್ಯಕ್ತಿಯನ್ನು ಎಷ್ಟು ಸಮಯದಲ್ಲಿ ದಾಟುತ್ತದೆ?

a) 16 b) 21 c) 18 d)12

IGacademy Download App in PlayStore | SUBSCRIBE IshwarGiri ಪಾಠಶಾಲೆ | 8660070677

Q. 320m ಉದ್ದದ ಮತ್ತು ಗಂಟೆಗೆ 84km ವೇಗದಲ್ಲಿ ಚಲಿಸುತ್ತಿರುವ ರೈಲು ಅದೇ ದಿಕ್ಕಿನಲ್ಲಿ 12kmph ವೇಗದಲ್ಲಿ ಚಲಿಸುತ್ತಿರುವ ವ್ಯಕ್ತಿಯನ್ನು ಎಷ್ಟು ಸಮಯದಲ್ಲಿ ದಾಟುತ್ತದೆ?

a) 16 b) 21 c) 18 d)12

IGacademy Download App in PlayStore SUBSCRIBE IshwarGiri ಪಾಠಶಾಲೆ 8660070677

Q. 200m long train crosses a telegraph pole in 14 seconds, how long will it take to cross a platform of length 300m?

200 ಮೀಟರ್ ಉದ್ದದ ರೈಲು ಟೆಲಿಗ್ರಾಫ್ ಕಂಬವನ್ನು ದಾಟಲು 14 ಸೆಕೆಂಡ್ ತೆಗೆದುಕೊಳ್ಳುತ್ತದೆ. ಅದೇ ರೈಲು 300 ಮೀಟರ್ ಉದ್ದದ ಫ್ಲಾಟ್ ಫಾರ್ಮ್ ದಾಟಲು ಎಷ್ಟು ಸಮಯ ತೆಗೆದುಕೊಳ್ಳುತ್ತದೆ?

a)30s b)45s c)40s d)35s

IGacademy Download App in PlayStore SUBSCRIBE IshwarGirl ಪಾಠಶಾಲೆ 8660070677

Q. 200 ಮೀಟರ್ ಉದ್ದದ ರೈಲು ಟೆಲಿಗ್ರಾಫ್ ಕಂಬವನ್ನು ದಾಟಲು 14 ಸೆಕೆಂಡ್ ತೆಗೆದುಕೊಳ್ಳುತ್ತದೆ. ಅದೇ ರೈಲು 300 ಮೀಟರ್ ಉದ್ದದ ಫ್ಲಾಟ್ ಫಾರ್ಮ್ ದಾಟಲು ಎಷ್ಟು ಸಮಯ ತೆಗೆದುಕೊಳ್ಳುತ್ತದೆ?

a)30s b)45s c)40s d)35s

IGacademy Download App in PlayStore SUBSCRIBE IshwarGiri ಪಾಠಶಾಲೆ 8660070677



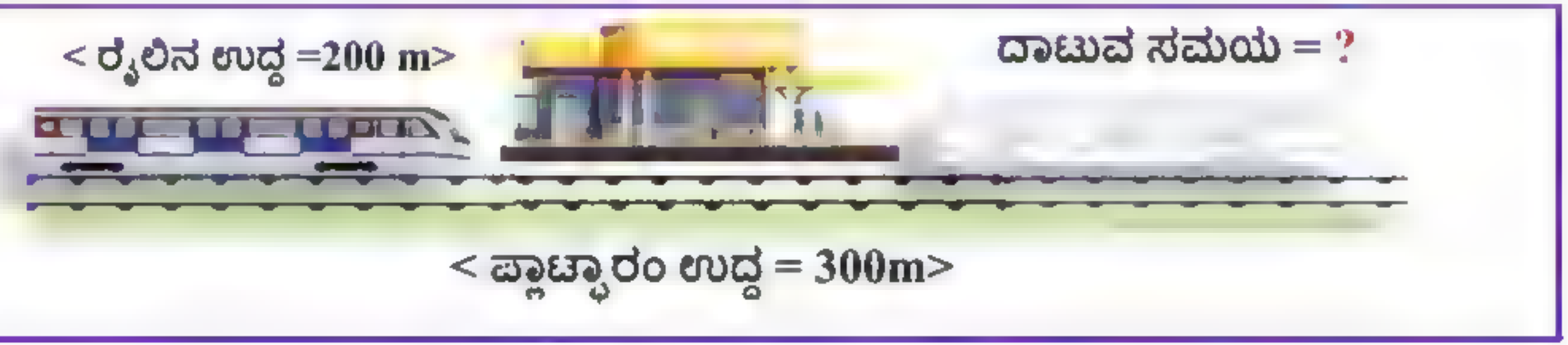

200 m ——————— 14 sec

500 m ——————— 35 sec

Q. 500m long train crosses a tree in 30 seconds, how long will it take to cross a tunnel of length 300m?

500 ಮೀಟರ್ ಉದ್ದದ ರೈಲು ಮರವನ್ನು ದಾಟಲು 30 ಸೆಕೆಂಡ್ ತೆಗೆದುಕೊಳ್ಳುತ್ತದೆ. ಅದೇ ರೈಲು 300 ಮೀಟರ್ ಉದ್ದದ ಸುರಂಗ ದಾಟಲು ಎಷ್ಟು ಸಮಯ ತೆಗೆದುಕೊಳ್ಳುತ್ತದೆ?

a)50s b)48s c)36s d)54s

IGacademy Download App in PlayStore SUBSCRIBE IshwarGiri ಪಾಠಶಾಲೆ 8660070677

Q. 500 ಮೀಟರ್ ಉದ್ದದ ರೈಲು ಮರವನ್ನು ದಾಟಲು 30 ಸೆಕೆಂಡ್ ತೆಗೆದುಕೊಳ್ಳುತ್ತದೆ. ಅದೇ ರೈಲು 300 ಮೀಟರ್ ಉದ್ದದ ಸುರಂಗ ದಾಟಲು ಎಷ್ಟು ಸಮಯ ತೆಗೆದುಕೊಳ್ಳುತ್ತದೆ?

a)50s b)48s c)36s d)54s

IGacademy Download App in PlayStore SUBSCRIBE IshwarGiri ಪಾಠಶಾಲೆ 8660070677



ದಾಟುವ ಸಮಯ = 30 sec

ದಾಟುವ ಸಮಯ = ?

< ಪ್ಲಾಟ್ಫಾರಂ ಉದ್ದ = 300m>

500 m ——————— 30 sec

800 m ——————— 48 sec

IGacademy Download App in PlayStore SUBSCRIBE IshwarGiri ಪಾಠಶಾಲೆ 8660070677

thank
you

Problems on Trains



Welcome

ರೈಲಿಗೆ ಸಂಬಂಧಿಸಿದ ಸಮಸ್ಯೆಗಳು



ದೂರ = ವೇಗ × ಸಮಯ

$$\text{ವೇಗ} = \frac{\text{ದೂರ}}{\text{ಸಮಯ}}$$

$$\text{ಸಮಯ} = \frac{\text{ದೂರ}}{\text{ವೇಗ}}$$

$D = S \times T$

$$S = \frac{D}{T}$$

$$T = \frac{D}{S}$$

IGacademy Download App in PlayStore | SUBSCRIBE IshwarGiri ಪಾಠಶಾಲೆ | 8660070677

ರೈಲಿಗೆ ಸಂಬಂಧಿಸಿದ ಸಮಸ್ಯೆಗಳು

ರೈಲು ಯಾವುದೇ ವಸ್ತುವನ್ನು ದಾಟಿದರೆ ದಾಟುವ ಸಮಯವು ಆ ವಸ್ತುವಿನ ಮೇಲೆ ನಿರ್ಧಾರಿತವಾಗುತ್ತದೆ.

ವಸ್ತುವಿನ ಉದ್ದ ಮತ್ತು ವೇಗ ಇಲ್ಲಿ ಪ್ರಮುಖವಾಗಿರುತ್ತದೆ

- **No Length (ಉದ್ದವಿಲ್ಲ) No Speed (ವೇಗವಿಲ್ಲ)**
  Ex:- ಕಂಬ, ಮರ
- **Has Length (ಉದ್ದವಿದ್ದು) No Speed (ವೇಗವಿಲ್ಲ)**
  Ex:- ಪ್ಲಾಟ್ ಫಾರಂ, ಸೇತುವೆ, ಸುರಂಗ
- **Has Length (ಉದ್ದವಿದ್ದು) Has Speed (ವೇಗವಿರುತ್ತದೆ)**
  Ex:- ಮತ್ತೊಂದು ರೈಲು

IGacademy Download App in PlayStore | SUBSCRIBE IshwarGirl ಪಾಠಶಾಲೆ | 8660070677

1) No Length (ಉದ್ದವಿಲ್ಲ), No Speed (ವೇಗವಿಲ್ಲ)



ರೈಲು ಕ್ರಮಿಸುವ ದೂರ = ರೈಲಿನ ಉದ್ದ + 0

ವೇಗ = ಕೇವಲ ರೈಲಿನ ವೇಗ

IGacademy Download App in PlayStore SUBSCRIBE IshwarGirl ಪಾಠಶಾಲೆ 8660070677

2) Has Length (ಉದ್ದವಿದ್ದು), No Speed (ವೇಗವಿಲ್ಲ)



ರೈಲು ಕ್ರಮಿಸುವ ದೂರ = ಪ್ಲಾಟ್ ಫಾರಂ ಉದ್ದ + ರೈಲಿನ ಉದ್ದ

ವೇಗ = ಕೇವಲ ರೈಲಿನ ವೇಗ

IGacademy Download App in PlayStore | SUBSCRIBE IshwarGiri ಪಾಠಶಾಲೆ | 8660070677

ಸಹ ಸಂಬಂಧಿತ ವೇಗ (Relative Speed)

a) ವಿರುದ್ಧ ದಿಕ್ಕಿನಲ್ಲಿ ದಾಟುವುದು

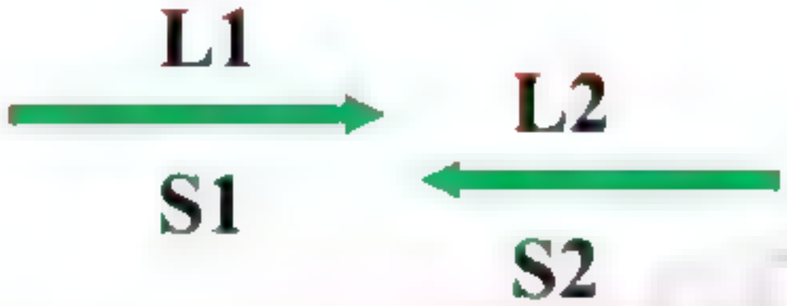

ವೇಗ = S1 + S2

b) ಒಂದೇ ದಿಕ್ಕಿನಲ್ಲಿ ದಾಟುವುದು



ವೇಗ = S1 - S2

IGacademy Download App in PlayStore | SUBSCRIBE IshwarGiri ಪಾಠಶಾಲೆ | 8660070677

3) Has Length (ಉದ್ದವಿದ್ದು), Has Speed (ವೇಗವಿದೆ)

a) ವಿರುದ್ಧ ದಿಕ್ಕಿನಲ್ಲಿ ದಾಟುವುದು

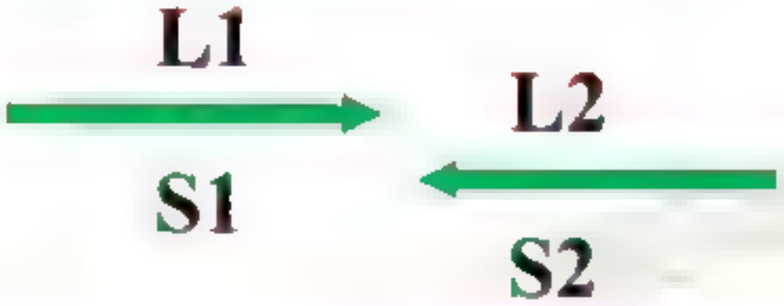

ರೈಲು ಕ್ರಮಿಸುವ ದೂರ = L1 + L2

ರೈಲು ದಾಟುವ ವೇಗ = S1 + S2

IGacademy Download App in PlayStore | SUBSCRIBE IshwarGiri ಪಾಠಶಾಲೆ | 8660070677

3) Has Length (ಉದ್ದವಿದ್ದು), Has Speed (ವೇಗವಿದೆ)

b) ಒಂದೇ ದಿಕ್ಕಿನಲ್ಲಿ ದಾಟುವುದು

ರೈಲು ಕ್ರಮಿಸುವ ದೂರ = L1 + L2

ರೈಲು ದಾಟುವ ವೇಗ = S1 - S2

IGacademy Download App in PlayStore | SUBSCRIBE IshwarGirl ಪಾಠಶಾಲೆ | 8660070677

ರೈಲು ವ್ಯಕ್ತಿ, ಕಂಬ ಅಥವಾ ಮರವನ್ನು ದಾಟುವುದು



IGacademy Download App in PlayStore SUBSCRIBE IshwarGiri ಪಾಠಶಾಲೆ 8660070677



IGacademy Download App in PlayStore | SUBSCRIBE IshwarGiri ಪಾಠಶಾಲೆ | 8660070677



IGacademy Download App in PlayStore SUBSCRIBE IshwarGiri ಪಾಠಶಾಲೆ 8660070677



IGacademy Download App in PlayStore SUBSCRIBE IshwarGiri ಪಾಠಶಾಲೆ 8660070677

ರೈಲು ವ್ಯಕ್ತಿ, ಕಂಬ ಅಥವಾ ಮರವನ್ನು ದಾಟುವುದು



ರೈಲು ಕ್ರಮಿಸುವ ದೂರ

= ರೈಲಿನ ಉದ್ದ + 0

ವೇಗ = ಕೇವಲ ರೈಲಿನ

ವೇಗ

IGacademy Download App in PlayStore | SUBSCRIBE IshwarGirl ಪಾಠಶಾಲೆ | 8660070677

Q. A train running at a speed of 36kmph crosses a tree in 22 seconds. Find the length of the train.

36kmph ವೇಗದಲ್ಲಿ ಚಲಿಸುವ ರೈಲು 22 ಸೆಕೆಂಡುಗಳಲ್ಲಿ ಮರವನ್ನು ದಾಟುತ್ತದೆ. ರೈಲಿನ ಉದ್ದವನ್ನು ಹುಡುಕಿ.

a)180m b)220m c)250m d)200m

IGacademy Download App in PlayStore SUBSCRIBE IshwarGiri ಪಾಠಶಾಲೆ 8660070677

Q. 36kmph ವೇಗದಲ್ಲಿ ಚಲಿಸುವ ರೈಲು 22 ಸೆಕೆಂಡುಗಳಲ್ಲಿ ಮರವನ್ನು ದಾಟುತ್ತದೆ. ರೈಲಿನ ಉದ್ದವನ್ನು ಹುಡುಕಿ.

a)180m b)220m c)250m d)200m

IGacademy Download App in PlayStore SUBSCRIBE IshwarGiri ಪಾಠಶಾಲೆ 8660070677

Q. A train running at a speed of 54kmph crosses a pole in 18 seconds. Find the length of the train.

54kmph ವೇಗದಲ್ಲಿ ಚಲಿಸುವ ರೈಲು 18 ಸೆಕೆಂಡುಗಳಲ್ಲಿ ಕಂಬವನ್ನು ದಾಟುತ್ತದೆ. ರೈಲಿನ ಉದ್ದವನ್ನು ಹುಡುಕಿ.

a)250m b)270m c)280m d)300m

IGacademy Download App in PlayStore SUBSCRIBE IshwarGirl ಪಾಠಶಾಲೆ 8660070677

Q. 54kmph ವೇಗದಲ್ಲಿ ಚಲಿಸುವ ರೈಲು 18 ಸೆಕೆಂಡುಗಳಲ್ಲಿ ಕಂಬವನ್ನು ದಾಟುತ್ತದೆ. ರೈಲಿನ ಉದ್ದವನ್ನು ಹುಡುಕಿ.

a)250m b)270m c)280m d)300m

IGacademy Download App in PlayStore SUBSCRIBE IshwarGirl ಪಾಠಶಾಲೆ 8660070677

ರೈಲು ಸೇತುವೆ, ಪ್ಲಾಟ್ ಫಾರಂ ಅಥವಾ ಸುರಂಗವನ್ನು ದಾಟುವುದು

ರೈಲು ಸೇತುವೆ, ಪ್ಲಾಟ್ ಫಾರಂ ಅಥವಾ ಸುರಂಗವನ್ನು ದಾಟುವುದು

ರೈಲು ಕ್ರಮಿಸುವ ದೂರ = ಸೇತುವೆಯ ಉದ್ದ+ ರೈಲಿನ ಉದ್ದ

ವೇಗ = ಕೇವಲ ರೈಲಿನ ವೇಗ

Q. Find the length of the bridge if the 310m long train runs at 54kmph and cross the bridge in 30 seconds.

310 ಮೀಟರ್ ಉದ್ದದ ರೈಲು 54 ಕಿ.ಮೀ ವೇಗದಲ್ಲಿ ಚಲಿಸುತ್ತಿದ್ದರೆ ಮತ್ತು 30 ಸೆಕೆಂಡುಗಳಲ್ಲಿ ಸೇತುವೆಯನ್ನು ದಾಟಿದರೆ ಸೇತುವೆಯ ಉದ್ದವನ್ನು ಕಂಡುಹಿಡಿಯಿರಿ.

a)150m b)200m c)450m d)140m

IGacademy Download App in PlayStore | SUBSCRIBE IshwarGiri ಪಾಠಶಾಲೆ | 8660070677

Q. 310 ಮೀಟರ್ ಉದ್ದದ ರೈಲು 54 ಕಿ.ಮೀ ವೇಗದಲ್ಲಿ ಚಲಿಸುತ್ತಿದ್ದರೆ ಮತ್ತು 30 ಸೆಕೆಂಡುಗಳಲ್ಲಿ ಸೇತುವೆಯನ್ನು ದಾಟಿದರೆ ಸೇತುವೆಯ ಉದ್ದವನ್ನು ಕಂಡುಹಿಡಿಯಿರಿ.

a)150m b)200m c)450m d)140m

IGacademy Download App in PlayStore SUBSCRIBE IshwarGiri ಪಾಠಶಾಲೆ 8660070677

Q. If a train 250 m long is moving at a speed of 90 km and crosses the sea shore in 24 seconds, find the length of the sea shore crossed by the train.

250 ಮೀಟರ್ ಉದ್ದದ ರೈಲು 90 ಕಿ.ಮೀ ವೇಗದಲ್ಲಿ ಚಲಿಸುತ್ತಿದ್ದರೆ ಮತ್ತು24 ಸೆಕೆಂಡುಗಳಲ್ಲಿ ಸಮುದ್ರದ ದಂಡೆಯನ್ನು ದಾಟಿದರೆ ರೈಲು ದಾಟಿದ ಸಮುದ್ರದ ದಂಡೆಯ ಉದ್ದವನ್ನು ಕಂಡುಹಿಡಿಯಿರಿ.

a)350m b)400m c)280m d)320m

IGacademy Download App in PlayStore SUBSCRIBE IshwarGirl ಪಾಠಶಾಲೆ 8660070677

Q. 250 ಮೀಟರ್ ಉದ್ದದ ರೈಲು 90 ಕಿ.ಮೀ ವೇಗದಲ್ಲಿ ಚಲಿಸುತ್ತಿದ್ದರೆ ಮತ್ತು24 ಸೆಕೆಂಡುಗಳಲ್ಲಿ ಸಮುದ್ರದ ದಂಡೆಯನ್ನು ದಾಟಿದರೆ ರೈಲು ದಾಟಿದ ಸಮುದ್ರದ ದಂಡೆಯ ಉದ್ದವನ್ನು ಕಂಡುಹಿಡಿಯಿರಿ.

a)350m b)400m c)280m d)320m

IGacademy Download App in PlayStore SUBSCRIBE IshwarGiri ಪಾಠಶಾಲೆ 8660070677

ಪರಸ್ಪರ ವಿರುದ್ಧ ದಿಕ್ಕಿನಲ್ಲಿ ದಾಟುವುದು

IGacademy Download App in PlayStore | SUBSCRIBE IshwarGiri ಪಾಠಶಾಲೆ | 8660070677

IGacademy Download App in PlayStore | SUBSCRIBE IshwarGiri ಪಾಠಶಾಲೆ | 8660070677

IGacademy Download App in PlayStore | SUBSCRIBE IshwarGirl ಪಾಠಶಾಲೆ | 8660070677

IGacademy Download App in PlayStore SUBSCRIBE IshwarGiri ಪಾಠಶಾಲೆ 8660070677

ಪರಸ್ಪರ ವಿರುದ್ಧ ದಿಕ್ಕಿನಲ್ಲಿ ಚಾಟುವುದು



ದೂರ = ಎರಡು ರೈಲಿನ ಉದ್ದ

ವೇಗ = S1 + S2

$$\text{ವೇಗ} = \frac{\text{ದೂರ}}{\text{ಸಮಯ}}$$

IGacademy Download App in PlayStore | SUBSCRIBE IshwarGiri ಪಾಠಶಾಲೆ | 8660070677

Q. Two trains Belagavi super fast & Vande Bharat Express of same length running in opposite direction with the speed of 40kmph and 50kmph respectively cross each other in 20 seconds. Find the length of each train.

ಬೆಳಗಾವಿ ಸೂಪರ್ ಫಾಸ್ಟ್ & ವಂದೇ ಭಾರತ ಎಕ್ಸ್ಪ್ರೆಸ್ ಒಂದೇ ಉದ್ದದ ಎರಡು ರೈಲುಗಳು ಕ್ರಮವಾಗಿ 40 ಕಿ.ಮೀ ಮತ್ತು 50 ಕಿ.ಮೀ ವೇಗದಲ್ಲಿ ವಿರುದ್ಧ ದಿಕ್ಕಿನಲ್ಲಿ ಚಲಿಸುತ್ತಿದ್ದು 20 ಸೆಕೆಂಡುಗಳಲ್ಲಿ ಒಂದನ್ನೊಂದು ದಾಟುತ್ತವೆ. ಪ್ರತಿ ರೈಲಿನ ಉದ್ದವನ್ನು ಕಂಡುಹಿಡಿಯಿರಿ.

a)300m **b)250m** **c)180m** **d)500m**

IGacademy Download App in PlayStore | SUBSCRIBE IshwarGiri ಪಾಠಶಾಲೆ | 8660070677

Q. ಬೆಳಗಾವಿ ಸೂಪರ್ ಫಾಸ್ಟ್ & ವಂದೇ ಭಾರತ ಎಕ್ಸ್ಪ್ರೆಸ್ ಒಂದೇ ಉದ್ದದ ಎರಡು ರೈಲುಗಳು ಕ್ರಮವಾಗಿ 40 ಕಿ.ಮೀ ಮತ್ತು 50 ಕಿ.ಮೀ ವೇಗದಲ್ಲಿ ವಿರುದ್ಧ ದಿಕ್ಕಿನಲ್ಲಿ ಚಲಿಸುತ್ತಿದ್ದು 20 ಸೆಕೆಂಡುಗಳಲ್ಲಿ ಒಂದನ್ನೊಂದು ದಾಟುತ್ತವೆ. ಪ್ರತಿ ರೈಲಿನ ಉದ್ದವನ್ನು ಕಂಡುಹಿಡಿಯಿರಿ.

a)300m **b)250m** **c)180m** **d)500m**

IGacademy Download App in PlayStore SUBSCRIBE IshwarGiri ಪಾಠಶಾಲೆ 8660070677

Q. Two trains Belagavi super fast & Vande Bharat Express of same length running in opposite direction with the speed of 54kmph and 90kmph respectively cross each other in 16 seconds. Find the length of each train.

ಬೆಳಗಾವಿ ಸೂಪರ್ ಫಾಸ್ಟ್ & ವಂದೇ ಭಾರತ ಎಕ್ಸ್ಪ್ರೆಸ್ ಒಂದೇ ಉದ್ದದ ಎರಡು ರೈಲುಗಳು ಕ್ರಮವಾಗಿ 54 ಕಿ.ಮೀ ಮತ್ತು 90 ಕಿ.ಮೀ ವೇಗದಲ್ಲಿ ವಿರುದ್ಧ ದಿಕ್ಕಿನಲ್ಲಿ ಚಲಿಸುತ್ತಿದ್ದು 16 ಸೆಕೆಂಡುಗಳಲ್ಲಿ ಒಂದನ್ನೊಂದು ದಾಟುತ್ತವೆ. ಪ್ರತಿ ರೈಲಿನ ಉದ್ದವನ್ನು ಕಂಡುಹಿಡಿಯಿರಿ.

a)350m b)300m c)280m d)320m

IGacademy Download App in PlayStore SUBSCRIBE IshwarGiri ಪಾಠಶಾಲೆ 8660070677

Q. ಬೆಳಗಾವಿ ಸೂಪರ್ ಫಾಸ್ಟ್ & ವಂದೇ ಭಾರತ ಎಕ್ಸ್ಪ್ರೆಸ್ ಒಂದೇ ಉದ್ದದ ಎರಡು ರೈಲುಗಳು ಕ್ರಮವಾಗಿ 54 ಕಿ.ಮೀ ಮತ್ತು 90 ಕಿ.ಮೀ ವೇಗದಲ್ಲಿ ವಿರುದ್ಧ ದಿಕ್ಕಿನಲ್ಲಿ ಚಲಿಸುತ್ತಿದ್ದು 16 ಸೆಕೆಂಡುಗಳಲ್ಲಿ ಒಂದನ್ನೊಂದು ದಾಟುತ್ತವೆ. ಪ್ರತಿ ರೈಲಿನ ಉದ್ದವನ್ನು ಕಂಡುಹಿಡಿಯಿರಿ.

a)350m **b)300m** **c)280m** **d)320m**

IGacademy Download App in PlayStore SUBSCRIBE IshwarGirl ಪಾಠಶಾಲೆ 8660070677

Q. Two trains A and B running in opposite direction with the speed of 30 kmph and 42kmph respectively cross each other in 30seconds. Length of train A is 320m. Find the length of B train.

A ಮತ್ತು B ಎರಡು ರೈಲುಗಳು ಕ್ರಮವಾಗಿ 30 ಕಿ.ಮೀ ಮತ್ತು 42 ಕಿ.ಮೀ ವೇಗದಲ್ಲಿ ವಿರುದ್ಧ ದಿಕ್ಕಿನಲ್ಲಿ ಚಲಿಸುತ್ತಿದ್ದು 30 ಸೆಕೆಂಡುಗಳಲ್ಲಿ ಒಂದನ್ನೊಂದು ದಾಟುತ್ತವೆ. A ರೈಲಿನ ಉದ್ದ 320m. B ರೈಲಿನ ಉದ್ದವನ್ನು ಕಂಡುಹಿಡಿಯಿರಿ.

a)280m b) 300m c) 250m d)340m

IGacademy Download App in PlayStore | SUBSCRIBE IshwarGiri ಪಾಠಶಾಲೆ | 8660070677

Q. A ಮತ್ತು B ಎರಡು ರೈಲುಗಳು ಕ್ರಮವಾಗಿ 30 ಕಿ.ಮೀ ಮತ್ತು 42 ಕಿ.ಮೀ ವೇಗದಲ್ಲಿ ವಿರುದ್ಧ ದಿಕ್ಕಿನಲ್ಲಿ ಚಲಿಸುತ್ತಿದ್ದು 30 ಸೆಕೆಂಡುಗಳಲ್ಲಿ ಒಂದನ್ನೊಂದು ದಾಟುತ್ತವೆ. A ರೈಲಿನ ಉದ್ದ 320m. B ರೈಲಿನ ಉದ್ದವನ್ನು ಕಂಡುಹಿಡಿಯಿರಿ.

a)280m b) 300m c) 250m d)340m

IGacademy Download App in PlayStore SUBSCRIBE IshwarGirl ಪಾಠಶಾಲೆ 8660070677

Q. Two trains Y and Z running in opposite direction with the speed of 36kmph and 72kmph respectively cross each other in 25 seconds. Length of train Y is 250m. Find the length of Z train.

Y ಮತ್ತು Z ಎರಡು ರೈಲುಗಳು ಕ್ರಮವಾಗಿ 36 ಕಿ.ಮೀ ಮತ್ತು 72ಕಿ.ಮೀ ವೇಗದಲ್ಲಿ ವಿರುದ್ಧ ದಿಕ್ಕಿನಲ್ಲಿ ಚಲಿಸುತ್ತಿದ್ದು 25 ಸೆಕೆಂಡುಗಳಲ್ಲಿ ಒಂದನ್ನೊಂದು ದಾಟುತ್ತವೆ. Y ರೈಲಿನ ಉದ್ದ 250m. Z ರೈಲಿನ ಉದ್ದವನ್ನು ಕಂಡುಹಿಡಿಯಿರಿ.

a)550m b) 600m c) 450m d)500m

IGacademy Download App in PlayStore | SUBSCRIBE IshwarGiri ಪಾಠಶಾಲೆ | 8660070677

Q. Y ಮತ್ತು Z ಎರಡು ರೈಲುಗಳು ಕ್ರಮವಾಗಿ 36 ಕಿ.ಮೀ ಮತ್ತು 72ಕಿ.ಮೀ ವೇಗದಲ್ಲಿ ವಿರುದ್ಧ ದಿಕ್ಕಿನಲ್ಲಿ ಚಲಿಸುತ್ತಿದ್ದು 25 ಸೆಕೆಂಡುಗಳಲ್ಲಿ ಒಂದನ್ನೊಂದು ದಾಟುತ್ತವೆ. Y ರೈಲಿನ ಉದ್ದ 250m. Z ರೈಲಿನ ಉದ್ದವನ್ನು ಕಂಡುಹಿಡಿಯಿರಿ.

a)550m b) 600m c) 450m d)500m

IGacademy Download App in PlayStore SUBSCRIBE IshwarGiri ಪಾಠಶಾಲೆ 8660070677

ಪರಸ್ಪರ ಒಂದೇ ದಿಕ್ಕಿನಲ್ಲಿ ದಾಟುವುದು

IGacademy Download App in PlayStore | SUBSCRIBE IshwarGiri ಪಾಠಶಾಲೆ | 8660070677

IGacademy Download App In PlayStore | SUBSCRIBE IshwarGiri ಪಾಠಶಾಲೆ | 8660070677

IGacademy Download App in PlayStore SUBSCRIBE IshwarGiri ಪಾಠಶಾಲೆ 8660070677

IGacademy Download App in PlayStore | SUBSCRIBE IshwarGiri ಪಾಠಶಾಲೆ | 8660070677

ಪರಸ್ಪರ ಒಂದೇ ದಿಕ್ಕಿನಲ್ಲಿ ದಾಟುವುದು



ವೇಗ = S1 - S2

ದೂರ = ಎರಡು ರೈಲಿನ ಉದ್ದ

IGacademy Download App in PlayStore | SUBSCRIBE IshwarGirl ಪಾಠಶಾಲೆ | 8660070677

Q. Two trains of equal length are running on parallel lines in the same direction at 90 km/hr and 36 km/hr. The faster train passes the slower train in 40 seconds. The length of each train is:

ಸಮಾನ ಉದ್ದದ ಎರಡು ರೈಲುಗಳು ಸಮಾನಾಂತರ ಹಳಿಗಳಲ್ಲಿ ಒಂದೇ ದಿಕ್ಕಿನಲ್ಲಿ ಗಂಟೆಗೆ 90 ಕಿಮೀ ಮತ್ತು ಗಂಟೆಗೆ 36 ಕಿಮೀ ವೇಗದಲ್ಲಿ ಚಲಿಸುತ್ತಿವೆ. ವೇಗವಾದ ರೈಲು 40 ಸೆಕೆಂಡುಗಳಲ್ಲಿ ನಿಧಾನಗತಿಯ ರೈಲನ್ನು ಹಾದುಹೋಗುತ್ತದೆ. ಪ್ರತಿ ರೈಲಿನ ಉದ್ದ:

a) 240 m **b) 300m** **c) 280m** **d) 320m**

IGacademy Download App in PlayStore | SUBSCRIBE IshwarGirl ಪಾಠಶಾಲೆ | 8660070677

Q. ಸಮಾನ ಉದ್ದದ ಎರಡು ರೈಲುಗಳು ಸಮಾನಾಂತರ ಹಳಿಗಳಲ್ಲಿ ಒಂದೇ ದಿಕ್ಕಿನಲ್ಲಿ ಗಂಟೆಗೆ 90 ಕಿಮೀ ಮತ್ತು ಗಂಟೆಗೆ 36 ಕಿಮೀ ವೇಗದಲ್ಲಿ ಚಲಿಸುತ್ತಿವೆ. ವೇಗವಾದ ರೈಲು 40 ಸೆಕೆಂಡುಗಳಲ್ಲಿ ನಿಧಾನಗತಿಯ ರೈಲನ್ನು ಹಾದುಹೋಗುತ್ತದೆ. ಪ್ರತಿ ರೈಲಿನ ಉದ್ದ:

a) 240 m **b) 300m** **c) 280m** **d) 320m**

IGacademy Download App in PlayStore SUBSCRIBE IshwarGirl ಪಾಠಶಾಲೆ 8660070677

Q. Two trains of equal length are running on parallel lines in the same direction at 110 km/hr and 50 km/hr. The faster train passes the slower train in 18 seconds. The length of each train is:

ಸಮಾನ ಉದ್ದದ ಎರಡು ರೈಲುಗಳು ಸಮಾನಾಂತರ ಹಳಿಗಳಲ್ಲಿ ಒಂದೇ ದಿಕ್ಕಿನಲ್ಲಿ ಗಂಟೆಗೆ 110 ಕಿಮೀ ಮತ್ತು ಗಂಟೆಗೆ 50 ಕಿಮೀ ವೇಗದಲ್ಲಿ ಚಲಿಸುತ್ತಿವೆ. ವೇಗವಾದ ರೈಲು 18 ಸೆಕೆಂಡುಗಳಲ್ಲಿ ನಿಧಾನಗತಿಯ ರೈಲನ್ನು ಹಾದುಹೋಗುತ್ತದೆ. ಪ್ರತಿ ರೈಲಿನ ಉದ್ದ:

a) 120 m **b) 240m** **c) 150m** **d) 180m**

IGacademy Download App in PlayStore SUBSCRIBE IshwarGiri ಪಾಠಶಾಲೆ 8660070677

Q. ಸಮಾನ ಉದ್ದದ ಎರಡು ರೈಲುಗಳು ಸಮಾನಾಂತರ ಹಳಿಗಳಲ್ಲಿ ಒಂದೇ ದಿಕ್ಕಿನಲ್ಲಿ ಗಂಟೆಗೆ 110 ಕಿಮೀ ಮತ್ತು ಗಂಟೆಗೆ 50 ಕಿಮೀ ವೇಗದಲ್ಲಿ ಚಲಿಸುತ್ತಿವೆ. ವೇಗವಾದ ರೈಲು 18 ಸೆಕೆಂಡುಗಳಲ್ಲಿ ನಿಧಾನಗತಿಯ ರೈಲನ್ನು ಹಾದುಹೋಗುತ್ತದೆ. ಪ್ರತಿ ರೈಲಿನ ಉದ್ದ:

a) 120 m **b) 240m** **c) 150m** **d) 180m**

IGacademy Download App in PlayStore SUBSCRIBE IshwarGiri ಪಾಠಶಾಲೆ 8660070677

Q. A train running at speed of 60 miles per hour is ahead of a train traveling at 100 miles per hour. If the faster train takes 48 minutes to catch the slow-moving train, how far are the trains from each other?

ಗಂಟೆಗೆ 60 ಮೈಲಿ ವೇಗದಲ್ಲಿ ಓಡುತ್ತಿರುವ ರೈಲೊಂದು ಗಂಟೆಗೆ 100 ಮೈಲಿ ವೇಗದಲ್ಲಿ ಓಡುತ್ತಿರುವ ರೈಲಿಗಿಂತ ಮುಂದೆ ಇದೆ . ಇವುಗಳಲ್ಲಿ ವೇಗವಾಗಿ ಓಡುತ್ತಿರುವ ರೈಲಿಗೆ ನಿಧಾನವಾಗಿ ಓಡುತ್ತಿರುವ ರೈಲನ್ನು ಹಿಡಿಯಲು / ಸಮೀಪಿಸಲು 48 ನಿಮಿಷಗಳು ಬೇಕಾಗುವುದಾದರೆ , ಅವೆರಡೂ ರೈಲುಗಳು ಪರಸ್ಪರ ಎಷ್ಟುದೂರದಲ್ಲಿದೆ?

a)24 miles b) 40miles c)32miles d)80 miles

IGacademy Download App in PlayStore | SUBSCRIBE IshwarGiri ಪಾಠಶಾಲೆ | 8660070677

Q. ಗಂಟೆಗೆ 60 ಮೈಲಿ ವೇಗದಲ್ಲಿ ಓಡುತ್ತಿರುವ ರೈಲೊಂದು ಗಂಟೆಗೆ 100 ಮೈಲಿ ವೇಗದಲ್ಲಿ ಓಡುತ್ತಿರುವ ರೈಲಿಗಿಂತ ಮುಂದೆ ಇದೆ . ಇವುಗಳಲ್ಲಿ ವೇಗವಾಗಿ ಓಡುತ್ತಿರುವ ರೈಲಿಗೆ ನಿಧಾನವಾಗಿ ಓಡುತ್ತಿರುವ ರೈಲನ್ನು ಹಿಡಿಯಲು / ಸಮೀಪಿಸಲು 48 ನಿಮಿಷಗಳು ಬೇಕಾಗುವುದಾದರೆ , ಅವೆರಡೂ ರೈಲುಗಳು ಪರಸ್ಪರ ಎಷ್ಟುದೂರದಲ್ಲಿದೆ?

a)24 miles **b) 40miles** **c)32miles** **d)80 miles**

IGacademy Download App in PlayStore SUBSCRIBE IshwarGiri ಪಾಠಶಾಲೆ 8660070677

Q. A train running at speed of 50 miles per hour is ahead of a train traveling at 130 miles per hour. If the faster train takes 75 minutes to catch the slow-moving train, how far are the trains from each other?

ಗಂಟೆಗೆ 50ಮೈಲಿ ವೇಗದಲ್ಲಿ ಓಡುತ್ತಿರುವ ರೈಲೊಂದು ಗಂಟೆಗೆ 130 ಮೈಲಿ ವೇಗದಲ್ಲಿ ಓಡುತ್ತಿರುವ ರೈಲಿಗಿಂತ ಮುಂದೆ ಇದೆ . ಇವುಗಳಲ್ಲಿ ವೇಗವಾಗಿ ಓಡುತ್ತಿರುವ ರೈಲಿಗೆ ನಿಧಾನವಾಗಿ ಓಡುತ್ತಿರುವ ರೈಲನ್ನು ಹಿಡಿಯಲು / ಸಮೀಪಿಸಲು 75 ನಿಮಿಷಗಳು ಬೇಕಾಗುವುದಾದರೆ , ಅವೆರಡೂ ರೈಲುಗಳು ಪರಸ್ಪರ ಎಷ್ಟುದೂರದಲ್ಲಿದೆ?

a) 100 miles **b) 80miles** **c) 110miles** **d) 120miles**

IGacademy Download App in PlayStore SUBSCRIBE IshwarGiri ಪಾಠಶಾಲೆ 8660070677

Q. ಗಂಟೆಗೆ 50ಮೈಲಿ ವೇಗದಲ್ಲಿ ಓಡುತ್ತಿರುವ ರೈಲೊಂದು ಗಂಟೆಗೆ 130 ಮೈಲಿ ವೇಗದಲ್ಲಿ ಓಡುತ್ತಿರುವ ರೈಲಿಗಿಂತ ಮುಂದೆ ಇದೆ . ಇವುಗಳಲ್ಲಿ ವೇಗವಾಗಿ ಓಡುತ್ತಿರುವ ರೈಲಿಗೆ ನಿಧಾನವಾಗಿ ಓಡುತ್ತಿರುವ ರೈಲನ್ನು ಹಿಡಿಯಲು / ಸಮೀಪಿಸಲು 75 ನಿಮಿಷಗಳು ಬೇಕಾಗುವುದಾದರೆ , ಅವೆರಡೂ ರೈಲುಗಳು ಪರಸ್ಪರ ಎಷ್ಟುದೂರದಲ್ಲಿದೆ?

a) 100 miles **b) 80miles** **c) 110miles** **d) 120miles**

IGacademy Download App in PlayStore SUBSCRIBE IshwarGirl ಪಾಠಶಾಲೆ 8660070677

ಚಲಿಸುತ್ತಿರುವ ವ್ಯಕ್ತಿಯನ್ನು ವಿರುದ್ಧ ದಿಕ್ಕಿನಲ್ಲಿ ದಾಟುವುದು

ಚಲಿಸುತ್ತಿರುವ ವ್ಯಕ್ತಿಯನ್ನು ವಿರುದ್ಧ ದಿಕ್ಕಿನಲ್ಲಿ ದಾಟುವುದು

ವೇಗ = St + Sm

ದೂರ = ರೈಲಿನ ಉದ್ದ

$$\text{ವೇಗ} = \frac{\text{ದೂರ}}{\text{ಸಮಯ}}$$

Q. A train running at speed of 30kmph crosses a man running at speed of 6kmph in opposite direction in 18 seconds. Find train length?

ಪ್ರತಿ ಗಂಟೆಗೆ 30 ಕಿಲೋಮೀಟರ್ ವೇಗದಲ್ಲಿ ಚಲಿಸುವ ರೈಲು 18 ಸೆಕೆಂಡುಗಳಲ್ಲಿ ವಿರುದ್ಧ ದಿಕ್ಕಿನಲ್ಲಿ ಪ್ರತಿ ಗಂಟೆಗೆ 6 ಕಿಲೋಮೀಟರ್ ವೇಗದಲ್ಲಿ ಚಲಿಸುವ ವ್ಯೆಕ್ತಿಯನ್ನು ದಾಟುತ್ತದೆ. ರೈಲಿನ ಉದ್ದವನ್ನು ಕಂಡುಹಿಡಿಯಿರಿ.

a)150m b)200m c)180m d)240m

IGacademy Download App in PlayStore | SUBSCRIBE IshwarGirl ಪಾಠಶಾಲೆ | 8660070677

Q. ಪ್ರತಿ ಗಂಟೆಗೆ 30 ಕಿಲೋಮೀಟರ್ ವೇಗದಲ್ಲಿ ಚಲಿಸುವ ರೈಲು 18 ಸೆಕೆಂಡುಗಳಲ್ಲಿ ವಿರುದ್ಧ ದಿಕ್ಕಿನಲ್ಲಿ ಪ್ರತಿ ಗಂಟೆಗೆ 6 ಕಿಲೋಮೀಟರ್ ವೇಗದಲ್ಲಿ ಚಲಿಸುವ ವ್ಯಕ್ತಿಯನ್ನು ದಾಟುತ್ತದೆ. ರೈಲಿನ ಉದ್ದವನ್ನು ಕಂಡುಹಿಡಿಯಿರಿ.

a)150m **b)200m** **c)180m** **d)240m**

IGacademy Download App in PlayStore SUBSCRIBE IshwarGiri ಪಾಠಶಾಲೆ 8660070677

Q. A train running at speed of 60 kmph crosses a man running at speed of 12 kmph in opposite direction in 24 seconds. Find train length?

ಪ್ರತಿ ಗಂಟೆಗೆ 60ಕಿಲೋಮೀಟರ್ ವೇಗದಲ್ಲಿ ಚಲಿಸುವ ರೈಲು 24 ಸೆಕೆಂಡುಗಳಲ್ಲಿ ವಿರುದ್ಧ ದಿಕ್ಕಿನಲ್ಲಿ ಪ್ರತಿ ಗಂಟೆಗೆ 12 ಕಿಲೋಮೀಟರ್ ವೇಗದಲ್ಲಿ ಚಲಿಸುವ ವ್ಯೆಕ್ತಿಯನ್ನು ದಾಟುತ್ತದೆ. ರೈಲಿನ ಉದ್ದವನ್ನು ಕಂಡುಹಿಡಿಯಿರಿ.

a)440m b)480m c)500m d)570m

IGacademy Download App in PlayStore | SUBSCRIBE IshwarGirl ಪಾಠಶಾಲೆ | 8660070677

Q. ಪ್ರತಿ ಗಂಟೆಗೆ 60ಕಿಲೋಮೀಟರ್ ವೇಗದಲ್ಲಿ ಚಲಿಸುವ ರೈಲು 24 ಸೆಕೆಂಡುಗಳಲ್ಲಿ ವಿರುದ್ಧ ದಿಕ್ಕಿನಲ್ಲಿ ಪ್ರತಿ ಗಂಟೆಗೆ 12 ಕಿಲೋಮೀಟರ್ ವೇಗದಲ್ಲಿ ಚಲಿಸುವ ವ್ಯಕ್ತಿಯನ್ನು ದಾಟುತ್ತದೆ. ರೈಲಿನ ಉದ್ದವನ್ನು ಕಂಡುಹಿಡಿಯಿರಿ.

a)440m b)480m c)500m d)570m

IGacademy Download App in PlayStore SUBSCRIBE IshwarGiri ಪಾಠಶಾಲೆ 8660070677

ಪರಸ್ಪರ ಒಂದೇ ದಿಕ್ಕಿನಲ್ಲಿ ದಾಟುವುದು



ಪರಸ್ಪರ ಒಂದೇ ದಿಕ್ಕಿನಲ್ಲಿ ದಾಟುವುದು



ವೇಗ = St - Sm

ದೂರ = ರೈಲಿನ ಉದ್ದ

Q. A train is running with a speed of 62kmph. In 15 seconds it will pass a man who is running at 8 kmph in the same direction in which the train is going. Find the length of train?

ಗಂಟೆಗೆ 62 ಕಿಲೋಮೀಟರ್ ವೇಗದಲ್ಲಿ ಚಲಿಸುವ ರೈಲು 15 ಸೆಕೆಂಡುಗಳಲ್ಲಿ ಅದೇ ದಿಕ್ಕಿನಲ್ಲಿ ಪ್ರತಿ ಗಂಟೆಗೆ 8 ಕಿಲೋಮೀಟರ್ ವೇಗದಲ್ಲಿ ಓಡುತ್ತಿರುವ ವ್ಯಕ್ತಿಯನ್ನು ದಾಟುತ್ತದೆ. ರೈಲಿನ ಉದ್ದವನ್ನು ಕಂಡುಹಿಡಿಯಿರಿ.

a) 225 b) 250 c) 190 d)200

IGacademy Download App in PlayStore | SUBSCRIBE IshwarGirl ಪಾಠಶಾಲೆ | 8660070677

Q. ಗಂಟೆಗೆ 62 ಕಿಲೋಮೀಟರ್ ವೇಗದಲ್ಲಿ ಚಲಿಸುವ ರೈಲು 15 ಸೆಕೆಂಡುಗಳಲ್ಲಿ ಅದೇ ದಿಕ್ಕಿನಲ್ಲಿ ಪ್ರತಿ ಗಂಟೆಗೆ 8 ಕಿಲೋಮೀಟರ್ ವೇಗದಲ್ಲಿ ಓಡುತ್ತಿರುವ ವ್ಯಕ್ತಿಯನ್ನು ದಾಟುತ್ತದೆ. ರೈಲಿನ ಉದ್ದವನ್ನು ಕಂಡುಹಿಡಿಯಿರಿ.

a) 225 b) 250 c) 190 d)200

IGacademy Download App in PlayStore | SUBSCRIBE IshwarGiri ಪಾಠಶಾಲೆ | 8660070677

Q. A train is running with a speed of 95kmph. In 14 seconds it will pass a man who is running at 5 kmph in the same direction in which the train is going. Find the length of train?

ಗಂಟೆಗೆ 95 ಕಿಲೋಮೀಟರ್ ವೇಗದಲ್ಲಿ ಚಲಿಸುವ ರೈಲು 14 ಸೆಕೆಂಡುಗಳಲ್ಲಿ ಅದೇ ದಿಕ್ಕಿನಲ್ಲಿ ಪ್ರತಿ ಗಂಟೆಗೆ 5 ಕಿಲೋಮೀಟರ್ ವೇಗದಲ್ಲಿ ಓಡುತ್ತಿರುವ ವ್ಯಕ್ತಿಯನ್ನು ದಾಟುತ್ತದೆ. ರೈಲಿನ ಉದ್ದವನ್ನು ಕಂಡುಹಿಡಿಯಿರಿ.

a) 320 b) 400 c) 350 d)300

IGacademy Download App in PlayStore SUBSCRIBE IshwarGirl ಪಾಠಶಾಲೆ 8660070677

Q. ಗಂಟೆಗೆ 95 ಕಿಲೋಮೀಟರ್ ವೇಗದಲ್ಲಿ ಚಲಿಸುವ ರೈಲು 14 ಸೆಕೆಂಡುಗಳಲ್ಲಿ ಅದೇ ದಿಕ್ಕಿನಲ್ಲಿ ಪ್ರತಿ ಗಂಟೆಗೆ 5 ಕಿಲೋಮೀಟರ್ ವೇಗದಲ್ಲಿ ಓಡುತ್ತಿರುವ ವ್ಯಕ್ತಿಯನ್ನು ದಾಟುತ್ತದೆ. ರೈಲಿನ ಉದ್ದವನ್ನು ಕಂಡುಹಿಡಿಯಿರಿ.

a) 320 b) 400 c) 350 d)300

IGacademy Download App in PlayStore SUBSCRIBE IshwarGiri ಪಾಠಶಾಲೆ 8660070677

Q. Two trains of speed 72 km/hr and 18 km/hr respectively are moving in the same direction. The fast moving train crosses a man of slow moving train in 30 second. Tell the length of fast moving train?

ಒಂದೇ ದಿಕ್ಕಿನಲ್ಲಿ ಕ್ರಮವಾಗಿ 72 ಕಿಮೀ ಮತ್ತು 18 ಕಿಮೀ ವೇಗದಲ್ಲಿ ಎರಡು ರೈಲುಗಳು ಚಲಿಸುತ್ತಿವೆ. ವೇಗವಾಗಿ ಚಲಿಸುವ ರೈಲು ನಿಧಾನವಾಗಿ ಚಲಿಸುವ ರೈಲಿನಲ್ಲಿನ ವ್ಯಕ್ತಿಯನ್ನು 30 ಸೆಕೆಂಡುಗಳಲ್ಲಿ ದಾಟುತ್ತದೆ. ವೇಗವಾಗಿ ಚಲಿಸುವ ರೈಲಿನ ಉದ್ದವನ್ನು ತಿಳಿಸಿ?

(a) 500 metre (b) 350 metre (c) 400 metre (d) 450 metre

iGacademy Download App in PlayStore SUBSCRIBE IshwarGiri ಪಾಠಶಾಲೆ 8660070677

Q. ಒಂದೇ ದಿಕ್ಕಿನಲ್ಲಿ ಕ್ರಮವಾಗಿ 72 ಕಿಮೀ ಮತ್ತು 18 ಕಿಮೀ ವೇಗದಲ್ಲಿ ಎರಡು ರೈಲುಗಳು ಚಲಿಸುತ್ತಿವೆ. ವೇಗವಾಗಿ ಚಲಿಸುವ ರೈಲು ನಿಧಾನವಾಗಿ ಚಲಿಸುವ ರೈಲಿನಲ್ಲಿನ ವ್ಯಕ್ತಿಯನ್ನು 30 ಸೆಕೆಂಡುಗಳಲ್ಲಿ ದಾಟುತ್ತದೆ. ವೇಗವಾಗಿ ಚಲಿಸುವ ರೈಲಿನ ಉದ್ದವನ್ನು ತಿಳಿಸಿ?

(a) 500 metre (b) 350 metre (c) 400 metre (d) 450 metre

IGacademy Download App in PlayStore | SUBSCRIBE IshwarGiri ಪಾಠಶಾಲೆ | 8660070677

Q. Two trains of speed 85 km/hr and 35 km/hr respectively are moving in the same direction. The fast moving train crosses a man of slow moving train in 27 second. Tell the length of fast moving train?

ಒಂದೇ ದಿಕ್ಕಿನಲ್ಲಿ ಕ್ರಮವಾಗಿ 85 ಕಿಮೀ ಮತ್ತು 35 ಕಿಮೀ ವೇಗದಲ್ಲಿ ಎರಡು ರೈಲುಗಳು ಚಲಿಸುತ್ತಿವೆ. ವೇಗವಾಗಿ ಚಲಿಸುವ ರೈಲು ನಿಧಾನವಾಗಿ ಚಲಿಸುವ ರೈಲಿನಲ್ಲಿನ ವ್ಯಕ್ತಿಯನ್ನು 27 ಸೆಕೆಂಡುಗಳಲ್ಲಿ ದಾಟುತ್ತದೆ. ವೇಗವಾಗಿ ಚಲಿಸುವ ರೈಲಿನ ಉದ್ದವನ್ನು ತಿಳಿಸಿ?

(a) 375 metre (b) 350 metre (c) 400 metre (d)325 metre

IGacademy Download App in PlayStore | SUBSCRIBE IshwarGiri ಪಾಠಶಾಲೆ | 8660070677

Q. ಒಂದೇ ದಿಕ್ಕಿನಲ್ಲಿ ಕ್ರಮವಾಗಿ 85 ಕಿಮೀ ಮತ್ತು 35 ಕಿಮೀ ವೇಗದಲ್ಲಿ ಎರಡು ರೈಲುಗಳು ಚಲಿಸುತ್ತಿವೆ. ವೇಗವಾಗಿ ಚಲಿಸುವ ರೈಲು ನಿಧಾನವಾಗಿ ಚಲಿಸುವ ರೈಲಿನಲ್ಲಿನ ವ್ಯಕ್ತಿಯನ್ನು 27 ಸೆಕೆಂಡುಗಳಲ್ಲಿ ದಾಟುತ್ತದೆ. ವೇಗವಾಗಿ ಚಲಿಸುವ ರೈಲಿನ ಉದ್ದವನ್ನು ತಿಳಿಸಿ?

(a) 375 metre (b) 350 metre (c) 400 metre (d)325 metre

IGacademy Download App in PlayStore SUBSCRIBE IshwarGiri ಪಾಠಶಾಲೆ 8660070677

Q. A 280 metre long train crosses a man in 20 seconds while crosses a tunnel in 50 second. What is the length of the tunnel?

280 ಉದ್ದದ ರೈಲು 20 ಸೆಕೆಂಡುಗಳಲ್ಲಿ ವ್ಯಕ್ತಿಯೊಬ್ಬನನ್ನು ದಾಟುತ್ತದೆ ಮತ್ತು ಅದೇ ರೈಲು ಸುರಂಗವನ್ನು ದಾಟಲು 50 ಸೆಕೆಂಡುಗಳನ್ನು ತೆಗೆದುಕೊಂಡರೆ ಸುರಂಗದ ಉದ್ದ?

a)450m b)420m c)400m d)500m

IGacademy Download App in PlayStore SUBSCRIBE IshwarGiri ಪಾಠಶಾಲೆ 8660070677

Q. 280 ಉದ್ದದ ರೈಲು 20 ಸೆಕೆಂಡುಗಳಲ್ಲಿ ವ್ಯಕ್ತಿಯೊಬ್ಬನನ್ನು ದಾಟುತ್ತದೆ ಮತ್ತು ಅದೇ ರೈಲು ಸುರಂಗವನ್ನು ದಾಟಲು 50 ಸೆಕೆಂಡುಗಳನ್ನು ತೆಗೆದುಕೊಂಡರೆ ಸುರಂಗದ ಉದ್ದ?

a)450m b)420m c)400m d)500m

IGacademy Download App in PlayStore SUBSCRIBE IshwarGiri ಪಾಠಶಾಲೆ 8660070677

< ರೈಲಿನ ಉದ್ದ = 280m >

ದಾಟುವ ಸಮಯ = 20 sec

< ರೈಲಿನ ಉದ್ದ =280 m>

ದಾಟುವ ಸಮಯ = 50 sec

< ಸುರಂಗದ ಉದ್ದ = ? >

Q. A 360 metre long train crosses a poll in 12 seconds while crosses a bridge in 30 second. What is the length of the bridge?

360 ಮೀಟರ್ ಉದ್ದದ ರೈಲು 12 ಸೆಕೆಂಡುಗಳಲ್ಲಿ ಕಂಬವನ್ನು ದಾಟಿದರೆ, ಅದೇ ರೈಲು ಸೇತುವೆಯನ್ನು 30 ಸೆಕೆಂಡುಗಳಲ್ಲಿ ದಾಟುತ್ತದೆ. ಸೇತುವೆಯ ಉದ್ದ ಎಷ್ಟು?

a)540m b)600m c)450m d)500m

IGacademy Download App in PlayStore SUBSCRIBE IshwarGirl ಪಾಠಶಾಲೆ 8660070677

Q. 360 ಮೀಟರ್ ಉದ್ದದ ರೈಲು 12 ಸೆಕೆಂಡುಗಳಲ್ಲಿ ಕಂಬವನ್ನು ದಾಟಿದರೆ, ಅದೇ ರೈಲು ಸೇತುವೆಯನ್ನು 30 ಸೆಕೆಂಡುಗಳಲ್ಲಿ ದಾಟುತ್ತದೆ. ಸೇತುವೆಯ ಉದ್ದ ಎಷ್ಟು?

a)540m b)600m c)450m d)500m

IGacademy Download App in PlayStore SUBSCRIBE IshwarGiri ಪಾಠಶಾಲೆ 8660070677

< ರೈಲಿನ ಉದ್ದ = 360m >

ದಾಟುವ ಸಮಯ = 12 sec

< ರೈಲಿನ ಉದ್ದ= 360 m>

ದಾಟುವ ಸಮಯ = 30 sec

< ಸೇತುವೆಯ ಉದ್ದ = ? >

Q. A man is standing on a 900 metre long platform a train crosses the platform in 25 seconds but it crosses that man in 10 seconds. What is the length of the train?

ಒಬ್ಬ ವ್ಯಕ್ತಿ 900 ಮೀಟರ್ ಉದ್ದದ ಪ್ಲಾಟ್‌ಫಾರ್ಮ್ ಮೇಲೆ ನಿಂತಿದ್ದಾನೆ, ರೈಲು 25 ಸೆಕೆಂಡುಗಳಲ್ಲಿ ಪ್ಲಾಟ್‌ಫಾರ್ಮ್ ಅನ್ನು ದಾಟುತ್ತದೆ ಆದರೆ ಅದು ಆ ಮನುಷ್ಯನನ್ನು 10 ಸೆಕೆಂಡುಗಳಲ್ಲಿ ದಾಟುತ್ತದೆ. ರೈಲಿನ ಉದ್ದ ಎಷ್ಟು?

(a) 500 metre (b) 600 metre (c) 750 metre (d) 400 metre

IGacademy Download App in PlayStore | SUBSCRIBE IshwarGiri ಪಾಠಶಾಲೆ | 8660070677

Q. ಒಬ್ಬ ವ್ಯಕ್ತಿ 900 ಮೀಟರ್ ಉದ್ದದ ಪ್ಲಾಟ್‌ಫಾರ್ಮ್ ಮೇಲೆ ನಿಂತಿದ್ದಾನೆ, ರೈಲು 25 ಸೆಕೆಂಡುಗಳಲ್ಲಿ ಪ್ಲಾಟ್‌ಫಾರ್ಮ್ ಅನ್ನು ದಾಟುತ್ತದೆ ಆದರೆ ಅದು ಆ ಮನುಷ್ಯನನ್ನು 10 ಸೆಕೆಂಡುಗಳಲ್ಲಿ ದಾಟುತ್ತದೆ. ರೈಲಿನ ಉದ್ದ ಎಷ್ಟು?

(a) 500 metre (b) 600 metre (c) 750 metre (d) 400 metre

IGacademy Download App in PlayStore SUBSCRIBE IshwarGiri ಪಾಠಶಾಲೆ 8660070677

Q. A man is standing on a 480 metre long platform a train crosses the platform in 35 seconds but it crosses that man in 25 seconds. What is the length of the train?

ಒಬ್ಬ ವ್ಯಕ್ತಿ 480 ಮೀಟರ್ ಉದ್ದದ ಪ್ಲಾಟ್‌ಫಾರ್ಮ್ ಮೇಲೆ ನಿಂತಿದ್ದಾನೆ, ರೈಲು 35 ಸೆಕೆಂಡುಗಳಲ್ಲಿ ಪ್ಲಾಟ್‌ಫಾರ್ಮ್ ಅನ್ನು ದಾಟುತ್ತದೆ ಆದರೆ ಅದು ಆ ಮನುಷ್ಯನನ್ನು 25 ಸೆಕೆಂಡುಗಳಲ್ಲಿ ದಾಟುತ್ತದೆ. ರೈಲಿನ ಉದ್ದ ಎಷ್ಟು?

(a) 960 metre (b) 1000 metre (c) 1200 metre (d) 1500 metre

IGacademy Download App in PlayStore | SUBSCRIBE IshwarGiri ಪಾಠಶಾಲೆ | 8660070677

Q. ಒಬ್ಬ ವ್ಯಕ್ತಿ 480 ಮೀಟರ್ ಉದ್ದದ ಪ್ಲಾಟ್‌ಫಾರ್ಮ್ ಮೇಲೆ ನಿಂತಿದ್ದಾನೆ, ರೈಲು 35 ಸೆಕೆಂಡುಗಳಲ್ಲಿ ಪ್ಲಾಟ್‌ಫಾರ್ಮ್ ಅನ್ನು ದಾಟುತ್ತದೆ ಆದರೆ ಅದು ಆ ಮನುಷ್ಯನನ್ನು 25 ಸೆಕೆಂಡುಗಳಲ್ಲಿ ದಾಟುತ್ತದೆ. ರೈಲಿನ ಉದ್ದ ಎಷ್ಟು?

(a) 960 metre (b) 1000 metre (c) 1200 metre (d) 1500 metre

IGacademy Download App in PlayStore SUBSCRIBE IshwarGiri ಪಾಠಶಾಲೆ 8660070677

Q. A train passes two platform of lengths 200 m and 500 m in 25 seconds and 40 seconds respectively. The length of the train is

ಒಂದು ರೈಲು 200 ಮೀ ಮತ್ತು 500 ಮೀ ಉದ್ದದ ಎರಡು ಪ್ಲಾಟಫಾರಂಗಳನ್ನು ಕ್ರಮವಾಗಿ 25 ಸೆಕೆಂಡುಗಳು ಮತ್ತು 40 ಸೆಕೆಂಡುಗಳಲ್ಲಿ ಹಾದುಹೋಗುತ್ತದೆ. ಹಾಗಾದರೆ ರೈಲಿನ ಉದ್ದ ಎಷ್ಟು?

(a) 400 m **(b) 300 m** **(c) 500 m** **(d) 200 m**

IGacademy Download App in PlayStore SUBSCRIBE IshwarGirl ಪಾಠಶಾಲೆ 8660070677

Q. ಒಂದು ರೈಲು 200 ಮೀ ಮತ್ತು 500 ಮೀ ಉದ್ದದ ಎರಡು ಪ್ಲಾಟಫಾರಂಗಳನ್ನು ಕ್ರಮವಾಗಿ 25 ಸೆಕೆಂಡುಗಳು ಮತ್ತು 40 ಸೆಕೆಂಡುಗಳಲ್ಲಿ ಹಾದುಹೋಗುತ್ತದೆ. ಹಾಗಾದರೆ ರೈಲಿನ ಉದ್ದ ಎಷ್ಟು?

(a) 400 m **(b) 300 m** **(c) 500 m** **(d) 200 m**

IGacademy Download App in PlayStore | SUBSCRIBE IshwarGiri ಪಾಠಶಾಲೆ | 8660070677

ದಾಟುವ ಸಮಯ = 25 sec

< ಪ್ಲಾಟ್ಫಾರಂ ಉದ್ದ = 200m >

ದಾಟುವ ಸಮಯ = 40 sec

< ಪ್ಲಾಟ್ಫಾರಂ ಉದ್ದ = 500m >

25s (PL1 + TL) ---------- 200m (PL1)

40s (PL2 + TL) ---------- 500m (PL2)

15s ---------- 300m

40s ---------- 800m

TL = 300m

Q. A train passes two tunnels of lengths 240 m and 360 m in 40 seconds and 52 seconds respectively. The length of the train is

ಒಂದು ರೈಲು 240 ಮೀ ಮತ್ತು 360 ಮೀ ಉದ್ದದ ಎರಡು ಸುರಂಗಗಳನ್ನು ಕ್ರಮವಾಗಿ 40 ಸೆಕೆಂಡುಗಳು ಮತ್ತು 52 ಸೆಕೆಂಡುಗಳಲ್ಲಿ ಹಾದುಹೋಗುತ್ತದೆ. ಹಾಗಾದರೆ ರೈಲಿನ ಉದ್ದ ಎಷ್ಟು?

(a) 180 m (b) 120 m (c) 200 m (d) 160 m

IGacademy Download App in PlayStore SUBSCRIBE IshwarGirl ಪಾಠಶಾಲೆ 8660070677

Q. ಒಂದು ರೈಲು 240 ಮೀ ಮತ್ತು 360 ಮೀ ಉದ್ದದ ಎರಡು ಸುರಂಗಗಳನ್ನು ಕ್ರಮವಾಗಿ 40 ಸೆಕೆಂಡುಗಳು ಮತ್ತು 52 ಸೆಕೆಂಡುಗಳಲ್ಲಿ ಹಾದುಹೋಗುತ್ತದೆ. ಹಾಗಾದರೆ ರೈಲಿನ ಉದ್ದ ಎಷ್ಟು?

(a) 180 m (b) 120 m (c) 200 m (d) 160 m

IGacademy Download App in PlayStore SUBSCRIBE IshwarGiri ಪಾಠಶಾಲೆ 8660070677

< ರೈಲಿನ ಉದ್ದ = ? >
ದಾಟುವ ಸಮಯ = 40 sec
< ಪ್ಲಾಟ್ಫಾರಂ ಉದ್ದ = 240m >

< ರೈಲಿನ ಉದ್ದ = ? >
ದಾಟುವ ಸಮಯ = 52 sec
< ಪ್ಲಾಟ್ಫಾರಂ ಉದ್ದ = 360m >

40s (PL1 + TL) ——— 240m (PL1)

52s (PL2 + TL) ——— 360m (PL2)

12s ——— 120m

52s ——— 520m

TL = 160m

Q. A train running at a speed of 30 m/s crosses a pole in 15 sec less than the time it requires to cross a bridge 4 times its length at the same speed. What is the length of the bridge?

30 ಮೀ./ಸೆಕೆಂಡ್ ವೇಗದಲ್ಲಿ ಚಲಿಸುವ ರೈಲು, ಅದೇ ವೇಗದಲ್ಲಿ ಕಂಬವನ್ನು ದಾಟಲು, ಅದರ 4 ಪಟ್ಟು ಉದ್ದ ಇರುವ ಸೇತುವೆಯನ್ನು ದಾಟಲು ಬೇಕಿರುವ ಸಮಯಕ್ಕಿಂತ 15 ಸೆಕೆಂಡ್ ಕಡಿಮೆ ಸಮಯ ತೆಗೆದುಕೊಳ್ಳುತ್ತದೆ. ಸೇತುವೆಯ ಉದ್ದ ಎಷ್ಟು?

(a) 450 m (b) 300 m (c) 560 m (d) 600 m

IGacademy Download App in PlayStore SUBSCRIBE IshwarGiri ಪಾಠಶಾಲೆ 8660070677

Q. 30 ಮೀ./ಸೆಕೆಂಡ್ ವೇಗದಲ್ಲಿ ಚಲಿಸುವ ರೈಲು, ಅದೇ ವೇಗದಲ್ಲಿ ಕಂಬವನ್ನು ದಾಟಲು, ಅದರ 4 ಪಟ್ಟು ಉದ್ದ ಇರುವ ಸೇತುವೆಯನ್ನು ದಾಟಲು ಬೇಕಿರುವ ಸಮಯಕ್ಕಿಂತ 15 ಸೆಕೆಂಡ್ ಕಡಿಮೆ ಸಮಯ ತೆಗೆದುಕೊಳ್ಳುತ್ತದೆ. ಸೇತುವೆಯ ಉದ್ದ ಎಷ್ಟು?

(a) 450 m **(b) 300 m** **(c) 560 m** **(d) 600 m**

IGacademy Download App in PlayStore | SUBSCRIBE IshwarGiri ಪಾಠಶಾಲೆ | 8660070677

Q. A train running at a speed of 40 m/s crosses a pole in 24 sec less than the time it requires to cross a bridge 3 times its length at the same speed. What is the length of the bridge?

40 ಮೀ./ಸೆಕೆಂಡ್ ವೇಗದಲ್ಲಿ ಚಲಿಸುವ ರೈಲು, ಅದೇ ವೇಗದಲ್ಲಿ ಕಂಬವನ್ನು ದಾಟಲು, ಅದರ 3 ಪಟ್ಟು ಉದ್ದ ಇರುವ ಸೇತುವೆಯನ್ನು ದಾಟಲು ಬೇಕಿರುವ ಸಮಯಕ್ಕಿಂತ 24 ಸೆಕೆಂಡ್ ಕಡಿಮೆ ಸಮಯ ತೆಗೆದುಕೊಳ್ಳುತ್ತದೆ. ಸೇತುವೆಯ ಉದ್ದ ಎಷ್ಟು?

(a) 900 m (b) 960 m (c) 720 m (d) 800 m

IGacademy Download App in PlayStore | SUBSCRIBE IshwarGirl ಪಾಠಶಾಲೆ | 8660070677

Q. 40 ಮೀ./ಸೆಕೆಂಡ್ ವೇಗದಲ್ಲಿ ಚಲಿಸುವ ರೈಲು, ಅದೇ ವೇಗದಲ್ಲಿ ಕಂಬವನ್ನು ದಾಟಲು, ಅದರ 3 ಪಟ್ಟು ಉದ್ದ ಇರುವ ಸೇತುವೆಯನ್ನು ದಾಟಲು ಬೇಕಿರುವ ಸಮಯಕ್ಕಿಂತ 24 ಸೆಕೆಂಡ್ ಕಡಿಮೆ ಸಮಯ ತೆಗೆದುಕೊಳ್ಳುತ್ತದೆ. ಸೇತುವೆಯ ಉದ್ದ ಎಷ್ಟು?

(a) 900 m (b) 960 m (c) 720 m (d) 800 m

IGacademy Download App in PlayStore SUBSCRIBE IshwarGiri ಪಾಠಶಾಲೆ 8660070677

ರೈಲು ವ್ಯಕ್ತಿ, ಕಂಬ ಅಥವಾ ಮರವನ್ನು ದಾಟುವುದು



IGacademy Download App in PlayStore SUBSCRIBE IshwarGiri ಪಾಠಶಾಲೆ 8660070677



IGacademy Download App in PlayStore | SUBSCRIBE IshwarGiri ಪಾಠಶಾಲೆ | 8660070677



IGacademy Download App in PlayStore SUBSCRIBE IshwarGiri ಪಾಠಶಾಲೆ 8660070677



IGacademy Download App in PlayStore SUBSCRIBE IshwarGiri ಪಾಠಶಾಲೆ 8660070677

ರೈಲು ವ್ಯಕ್ತಿ, ಕಂಬ ಅಥವಾ ಮರವನ್ನು ದಾಟುವುದು



ರೈಲು ಕ್ರಮಿಸುವ ದೂರ

= ರೈಲಿನ ಉದ್ದ + 0

ವೇಗ = ಕೇವಲ ರೈಲಿನ

ವೇಗ

IGacademy Download App in PlayStore | SUBSCRIBE IshwarGirl ಪಾಠಶಾಲೆ | 8660070677

Q. Find the time taken by a 240 m long train, moving at a speed of 15 mps, to cross the light pole on the platform.

ಪ್ಲಾಟ್‌ಫಾರ್ಮ್‌ನಲ್ಲಿದ್ದ ಲೈಟಿನ ಕಂಬ ದಾಟಲು 15 mps ವೇಗದಲ್ಲಿ ಚಲಿಸುವ, 240 ಮೀಟರ್ ಉದ್ದದ ರೈಲು ತೆಗೆದುಕೊಂಡ ಸಮಯವನ್ನು ಕಂಡುಹಿಡಿಯಿರಿ.

a)16 s b)12 s c)18 s d)15 s

IGacademy Download App in PlayStore | SUBSCRIBE IshwarGiri ಪಾಠಶಾಲೆ | 8660070677

Q. ಪ್ಲಾಟ್‌ಫಾರ್ಮ್‌ನಲ್ಲಿದ್ದ ಲೈಟಿನ ಕಂಬ ದಾಟಲು 15 mps ವೇಗದಲ್ಲಿ ಚಲಿಸುವ, 240 ಮೀಟರ್ ಉದ್ದದ ರೈಲು ತೆಗೆದುಕೊಂಡ ಸಮಯವನ್ನು ಕಂಡುಹಿಡಿಯಿರಿ.

a)16 s b)12 s c)18 s d)15 s

IGacademy Download App in PlayStore SUBSCRIBE IshwarGiri ಪಾಠಶಾಲೆ 8660070677

Q. Find the time taken by a 500 meters long train, moving at a speed of 72 kmph, to cross the flagpole on the platform.

ಪ್ಲಾಟ್‌ಫಾರ್ಮ್‌ನಲ್ಲಿದ್ದ ಧ್ವಜಸ್ತಂಭ ದಾಟಲು 72 kmph ವೇಗದಲ್ಲಿ ಚಲಿಸುವ, 500 ಮೀಟರ್ ಉದ್ದದ ರೈಲು ತೆಗೆದುಕೊಂಡ ಸಮಯವನ್ನು ಕಂಡುಹಿಡಿಯಿರಿ.

a)20 s b)30 s c)25 s d)27 s

IGacademy Download App in PlayStore | SUBSCRIBE IshwarGiri ಪಾಠಶಾಲೆ | 8660070677

Q. ಪ್ಲಾಟ್‌ಫಾರ್ಮ್‌ನಲ್ಲಿದ್ದ ಧ್ವಜಸ್ತಂಭ ದಾಟಲು 72 kmph ವೇಗದಲ್ಲಿ ಚಲಿಸುವ, 500 ಮೀಟರ್ ಉದ್ದದ ರೈಲು ತೆಗೆದುಕೊಂಡ ಸಮಯವನ್ನು ಕಂಡುಹಿಡಿಯಿರಿ.

a)20 s b)30 s c)25 s d)27 s

IGacademy Download App in PlayStore SUBSCRIBE IshwarGiri ಪಾಠಶಾಲೆ 8660070677

ರೈಲು ಸೇತುವೆ, ಪ್ಲಾಟ್ ಫಾರಂ ಅಥವಾ ಸುರಂಗವನ್ನು ದಾಟುವುದು

ರೈಲು ಸೇತುವೆ, ಪ್ಲಾಟ್ ಫಾರಂ ಅಥವಾ ಸುರಂಗವನ್ನು ದಾಟುವುದು

ರೈಲು ಕ್ರಮಿಸುವ ದೂರ = ಸೇತುವೆಯ ಉದ್ದ+ ರೈಲಿನ ಉದ್ದ

ವೇಗ = ಕೇವಲ ರೈಲಿನ ವೇಗ

Q. A train moving at a speed of 54kmph crosses a river bank of 200m wide. This train is 400m long and how long will it take for the train to cross completely?

54kmph ವೇಗದಲ್ಲಿ ಹೋಗುತ್ತಿರುವ ರೈಲೊಂದು 200m ಅಗಲದ ನದಿ ದಂಡೆಯನ್ನು ದಾಟುತ್ತಿದೆ. ಈ ರೈಲು 400 ಮೀ ಉದ್ದವಿದ್ದು ರೈಲು ಸಂಪೂರ್ಣವಾಗಿ ಹೊರಬರಲು ಎಷ್ಟು ಸಮಯ ತಗಲುತ್ತದೆ?

(In seconds)

a)40 b)30 c)50 d)25

IGacademy Download App in PlayStore | SUBSCRIBE IshwarGirl ಪಾಠಶಾಲೆ | 8660070677

Q. 54kmph ವೇಗದಲ್ಲಿ ಹೋಗುತ್ತಿರುವ ರೈಲೊಂದು 200m ಅಗಲದ ನದಿ ದಂಡೆಯನ್ನು ದಾಟುತ್ತಿದೆ. ಈ ರೈಲು 400 ಮೀ ಉದ್ದವಿದ್ದು ರೈಲು ಸಂಪೂರ್ಣವಾಗಿ ಹೊರಬರಲು ಎಷ್ಟು ಸಮಯ ತಗಲುತ್ತದೆ?

(In seconds)

a)40 **b)30** **c)50** **d)25**

IGacademy Download App in PlayStore | SUBSCRIBE IshwarGiri ಪಾಠಶಾಲೆ | 8660070677

Q. A train traveling at 90 km / hr enters a 350m long tunnel. How long does it take to cross the tunnel if the train is 400m long

90kmph ವೇಗದಲ್ಲಿ ಹೋಗುತ್ತಿರುವ ರೈಲೊಂದು 350ಮೀ ಉದ್ದದ ಸುರಂಗವನ್ನು ಪ್ರವೇಶಿಸುತ್ತದೆ . ಈ ರೈಲು 400ಮೀ ಉದ್ದವಿದ್ದು ರೈಲು ಸುರಂಗದಿಂದ ಸಂಪೂರ್ಣವಾಗಿ ಹೊರಬರಲು ಎಷ್ಟು ಸಮಯ ತಗಲುತ್ತದೆ? (In seconds)

a)20 b)30 c)24 d)36

IGacademy Download App in PlayStore | SUBSCRIBE IshwarGiri ಪಾಠಶಾಲೆ | 8660070677

Q. 90kmph ವೇಗದಲ್ಲಿ ಹೋಗುತ್ತಿರುವ ರೈಲೊಂದು 350ಮೀ ಉದ್ದದ ಸುರಂಗವನ್ನು ಪ್ರವೇಶಿಸುತ್ತದೆ . ಈ ರೈಲು 400ಮೀ ಉದ್ದವಿದ್ದು ರೈಲು ಸುರಂಗದಿಂದ ಸಂಪೂರ್ಣವಾಗಿ ಹೊರಬರಲು ಎಷ್ಟು ಸಮಯ ತಗಲುತ್ತದೆ? (In seconds)

a)20 b)30 c)24 d)36

IGacademy Download App in PlayStore | SUBSCRIBE IshwarGiri ಪಾಠಶಾಲೆ | 8660070677

thank
you

8660070677

4:30

9